géographie

DEJOUX COURS MOYEN

SPECIMEN

CAHIER PRATIQUE HACHETTE

Cahier d'exercices de

Géographie

Cours moyen

appartenant à:

Classe:

Les leçons de ce cahier correspondent au Livret pédagogique n° 15 du Manuel Général.

CLASSIQUES HACHETTE

© *Librairie Hachette. 1966.*

Préface

Avec ce cahier, les applications de la leçon de Géographie et le contrôle des acquisitions deviennent – soit au cours de la classe, soit après celle-ci – des exercices attrayants et efficaces.

Attrayants, par la forme, la nature, la variété et l'articulation des questions posées, enrichies par l'apport de graphismes stimulants.

Efficaces, parce que les élèves font sur ce cahier de nombreux exercices dans le temps nécessaire à la rédaction d'un seul sur le cahier habituel et parce que le maître contrôle plus facilement des réponses courtes situées à des emplacements prévus.

La marge de droite est réservée tant aux annotations du maître qu'aux corrections de l'élève.

Conseils pour les élèves

Suivre les indications du maître ou de la maîtresse. Ne jamais faire un exercice sans y avoir été invité.

Réfléchir avant de répondre, d'abord sur un brouillon, pour éviter de fâcheuses ratures.

Ne jamais appuyer en écrivant ou en coloriant.

Glisser un carton sous la page sur laquelle on écrit.

Utiliser : porte-plume ou crayon à bille (noir, rouge, bleu), crayons de couleurs, crayon noir, gomme et estompe.

Tirer tous les traits à la règle.

Écrire la réponse là où il y a un •

Inscrire une croix, un chiffre, une lettre... dans les ○ ou les □.

Relier par un trait rouge les points rouges quand vous trouverez ce signe •—•

Limiter les cartes aux seuls noms indiqués par le cahier (ou par le maître). Inscrire ces noms entre les traits parallèles prévus sur la carte.

Si ce cahier est bien soigné, sans doute vous permettra-t-on de le garder pour vous en fin d'année. Bon courage.

Charles DEJOUX
Instituteur d'École annexe.

1 Plans et cartes

1
Coloriez :
en bleu, la Seine,
en vert, les jardins,
en noir, les bâtiments.

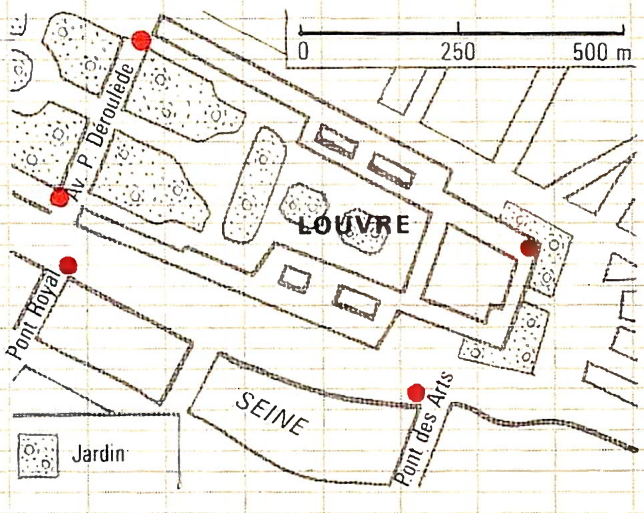

2
Utilisez l'échelle du plan pour trouver, de ● à ● :
- la longueur du Louvre
- celle de l'av. Déroulède
- la distance entre le pont des Arts et le pont Royal

Longueur du Louvre : . m.

Longueur de l'av. Déroulède : . m.

Distance entre les ponts : . m.

3
En bleu la Seine et les lacs,
en vert les bois,
en jaune orangé les routes.

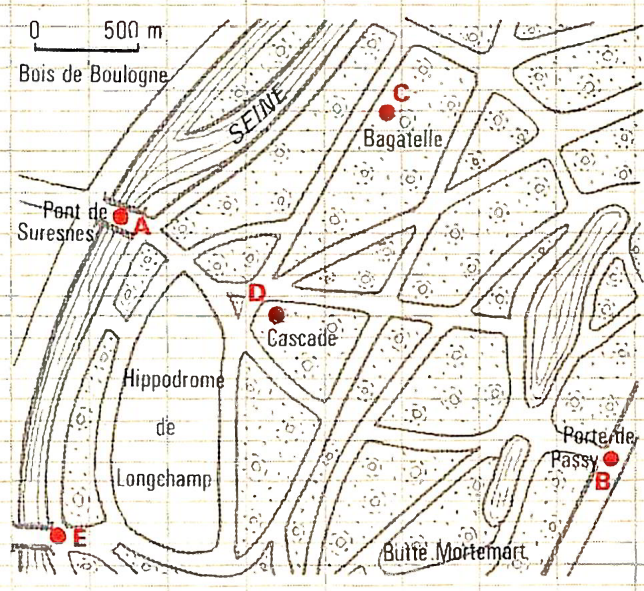

4
Distance réelle = distance sur la carte × dénominateur de l'échelle.
A l'aide de l'échelle de cette carte (1/50 000) calculez la distance à vol d'oiseau :
- de A à B ?
- de C à D ?
- de A à E ?

A vol d'oiseau, il y a :

- m de A à B,
- m de C à D,
- m de A à E.

5
Distance sur la carte = distance réelle divisée par le dénominateur de l'échelle.
Représentez par un segment une distance de 1 km :

Ⓐ sur une carte au 50 000e
Ⓑ sur une carte au 200 000e

Ⓐ 1 km sur une carte au 50 000e :

Ⓑ 1 km sur une carte au 200 000e :

6
Quelle carte donne le plus de détails :
au 1/50 000 ou au 1/80 000 ?

C'est la carte au

qui donne le plus de détails.

7
Complétez le croquis et indiquez les hauteurs en

8 Coloriez le croquis.
En vert clair de 0 à 50 m.
En vert foncé de 50 à 100 m.
En jaune clair de 100 à 150 m.
En jaune orangé de 150 à 200 m

9
Tracez en rouge la courbe

des 125 m.

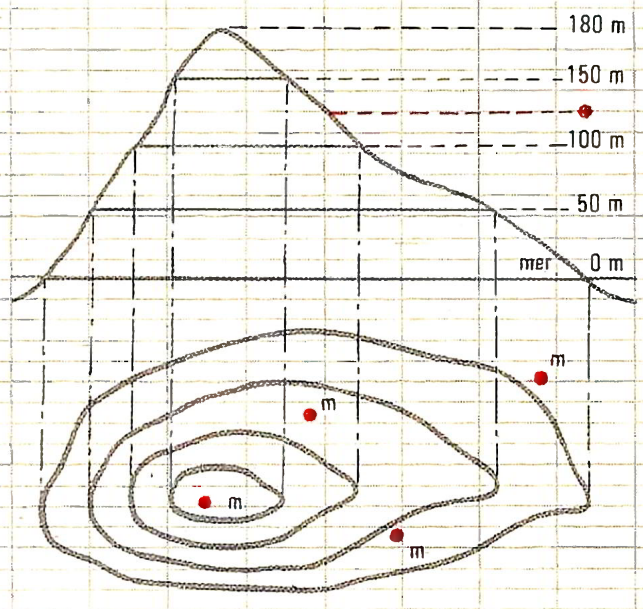

10
Relief de la région parisienne.
de 0 à 50 m.
de 50 à 100 m.
plus de 100 m.

Repassez en rouge les courbes qui indiquent le niveau 50 m.

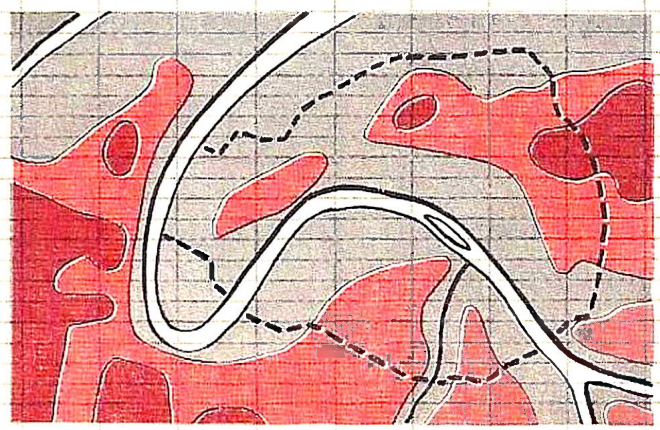

2 Présentation de la France

1
Climat. – Observez la situation de la France par rapport au pôle nord et à l'équateur. Concluez en situant les bonnes réponses : très chaud, très froid ou tempéré.

Le climat du pôle est .

de l'équateur est .

Donc le climat de la France est .

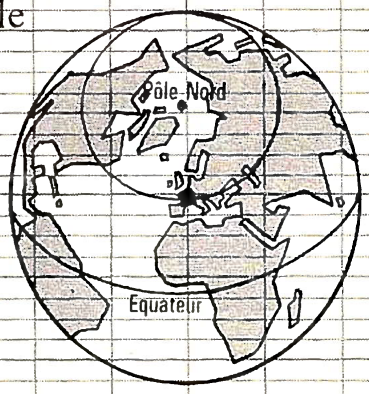

2
Frontières. – Dans chaque ☐ écrire le chiffre qui correspond à la bonne réponse :

1 Mer du Nord	2 Suisse
3 Méditerranée	4 Manche
5 Luxembourg	6 Italie
7 Atlantique	8 Espagne
9 Allemagne	10 Belgique

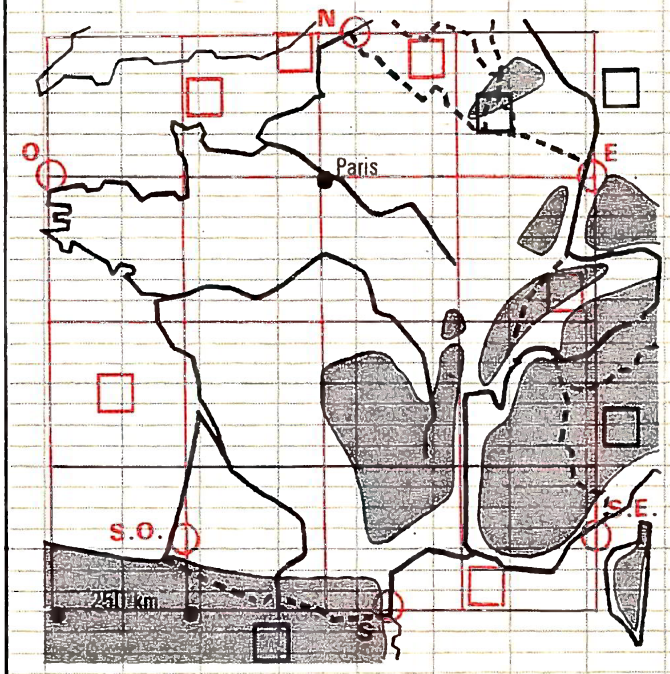

3
Forme. – Joignez les points N, O, SO, S, SE, E et N.

Combien de côtés?
. Très inégaux ou . presque égaux?

La figure obtenue a . côtés qui sont .

4
Dimensions. – En utilisant l'échelle, calculez les dimensions NS et E O de la France.

La France mesure :

. km du Nord au Sud.

. km de l'Est à l'Ouest.

5
Superficie de la France.
Complétez le graphique.

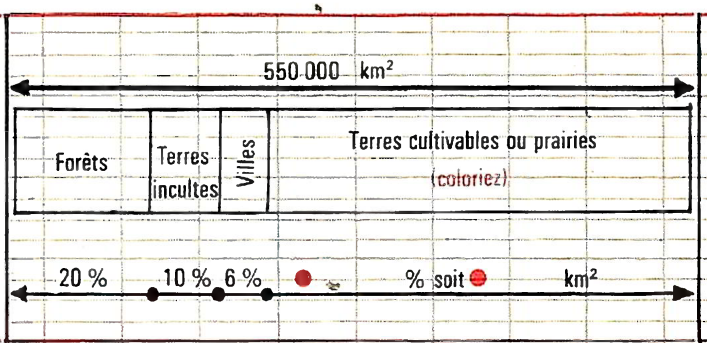

6
Population de la France.
Calculez et complétez.



7
Carte du relief et des fleuves.
En bleu, côtes et cours d'eau.
En vert clair, les plaines.
En orangé, les montagnes.

Écrivez en place

- BASSIN PARISIEN
- ALPES
- JURA
- BASSIN AQUITAIN
- PYRÉNÉES
- MASSIF CENTRAL
- VOSGES
- *Seine*
- *Loire*
- *Garonne*
- *Rhône*
- *Rhin.*

3 Le climat de la France

1
Coloriez en bleu les flèches indiquant les vents océaniques dominants,
et en rouge les vents des régions méditerranéennes

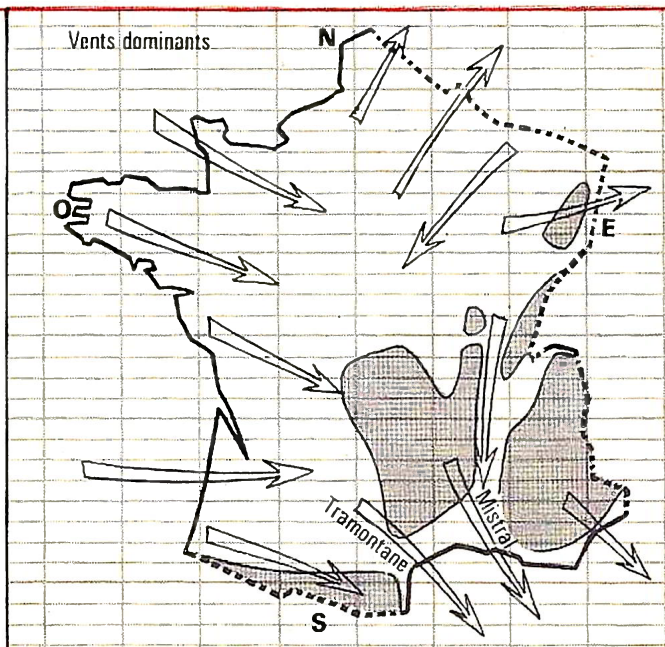

2
Nord, Est, Sud ou Ouest?

Dans les régions océaniques les vents soufflent, le plus souvent,

d. en.

3
Qu'apportent-ils en toutes saisons?

Ils apportent
- la pluie,
- la sécheresse,
- la douceur,
- le froid.

4
Vrai ☒ ou faux ☐?

Dans les régions méditerranéennes les vents viennent généralement :

☐ de la mer ☐ des montagnes

Ils provoquent :

☐ un refroidissement
☐ un réchauffement
} de la température

5

Pour chaque station construire la courbe des températures (utilisez 3 couleurs).

Océanique Brest		Continental Strasbourg		Méditerran. Marseille	
J 7°	J 16°	J 0°	J 18°	J 7°	J 24°
F 8°	A 17°	F 2°	A 17°	F 8°	A 24°
M 9°	S 15°	M 5°	S 14°	M 10°	S 20°
A 10°	O 13°	A 10°	O 9°	A 14°	O 15°
M 12°	N 10°	M 13°	N 4°	M 17°	N 11°
J 14°	D 8°	J 17°	D 1°	J 20°	D 8°

6

Observez le graphique et répondez.



Les hivers sont doux à .

et à .

Les étés sont frais à .

Les étés sont chauds à .

7

Pour chaque station construire la courbe des précipitations (en mm d'eau).

Brest		Strasbourg		Marseille	
J 80	J 55	J 30	J 85	J 50	J 15
F 70	A 60	F 35	A 80	F 38	A 20
M 50	S 90	M 40	S 70	M 45	S 63
A 50	O 95	A 50	O 70	A 50	O 90
M 50	N 90	M 70	N 50	M 40	N 85
J 55	D 80	J 85	D 35	J 25	D 55

8

Calculez ici le total annuel.

. . .



Les pluies tombent surtout :

en saison froide à .

en été à .

en automne à .

4 Les Alpes

1
Écrivez dans chaque ☐ le chiffre correspondant à la bonne réponse :

1 Léman
2 Méditerranée
3 Italie
4 Rhône
5 Isère
5 Durance

2
Calculez les dimensions NS et EO des Alpes. Écrivez les réponses aux endroits prévus.

3
Le Mont Blanc, plus haut sommet, s'élève à 4 807 m. Écrivez cette altitude en place (▲).

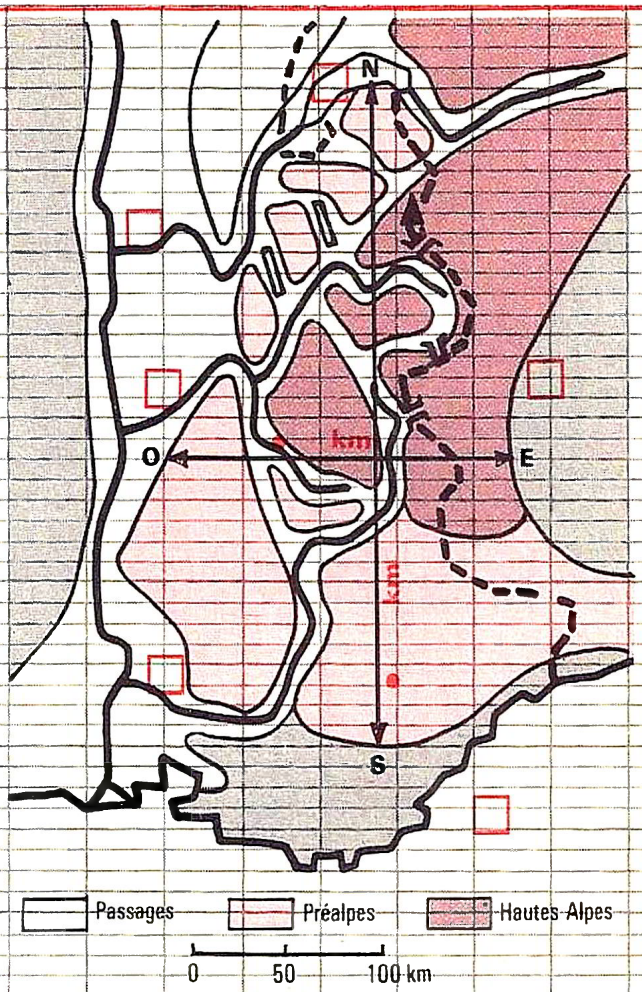

4
Suivez du doigt les grandes vallées et répondez :
vrai ☒ ou faux ☐

Les grandes vallées :

☐ aboutissent à des cols.

☐ n'aboutissent pas à des cols.

☐ ne communiquent pas.

☐ communiquent entre elles.

5
Faciles ou difficiles?

Les Alpes sont

à franchir du Nord au Sud comme de l'Est à l'Ouest.

6

Observez ces données et répondez :

	Alt. (m)	Pluie (mm)	Habitants (km²)
Alp. N.	3000/4807	+ de 1 500	55
Alp. S.	3000/3500	— de 1 000	22

• Nord ou • Sud ? } Les plus élevées : •
les plus humides : •
les plus riches : •

7

Complétez le croquis avec :

• forêts • alpages
• neiges persistantes
• vallée • cultures

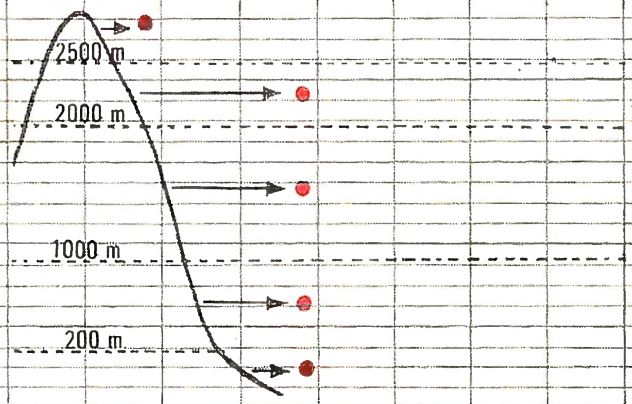

8

Carte des Alpes.

En bleu, côtes et cours d'eau.
En jaune clair, les Préalpes.
En orangé, les Hautes Alpes.

Écrivez en place :

• *Léman* • *MÉDITERRANÉE*
• *Rhône* • *Isère*
• *Durance*
• Pelvoux • Mont-Blanc
• Col du Pt-St-Bernard
• Col du Mont-Cenis
• Col du Mont-Genèvre

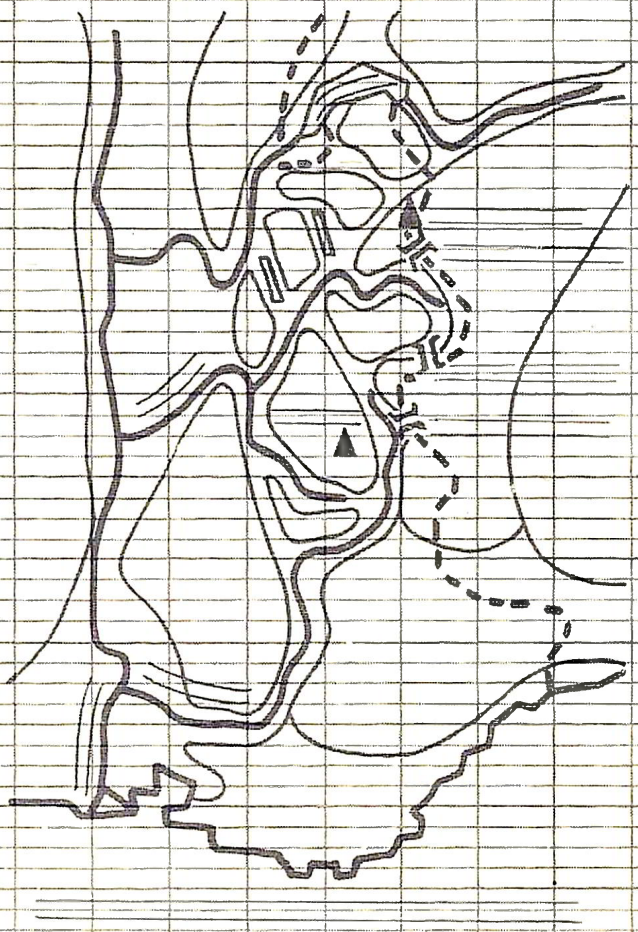

5 Le Jura

1
Écrivez dans chaque ☐ le chiffre correspondant à la bonne réponse :

☐1 Rhin ☐2 Léman
☐3 Doubs ☐4 Rhône
☐5 Alpes ☐6 Suisse ☐7 Vosges
☐8 Porte de Bourgogne

2
Écrivez en place : ▲ 1 723 m.
PLATEAU, MONTAGNE

3
Calculez les dimensions NE-SO puis O-E. Écrivez les réponses aux endroits prévus.

4
Comparez le Crêt de la Neige (1 723 m) au Mont-Blanc.

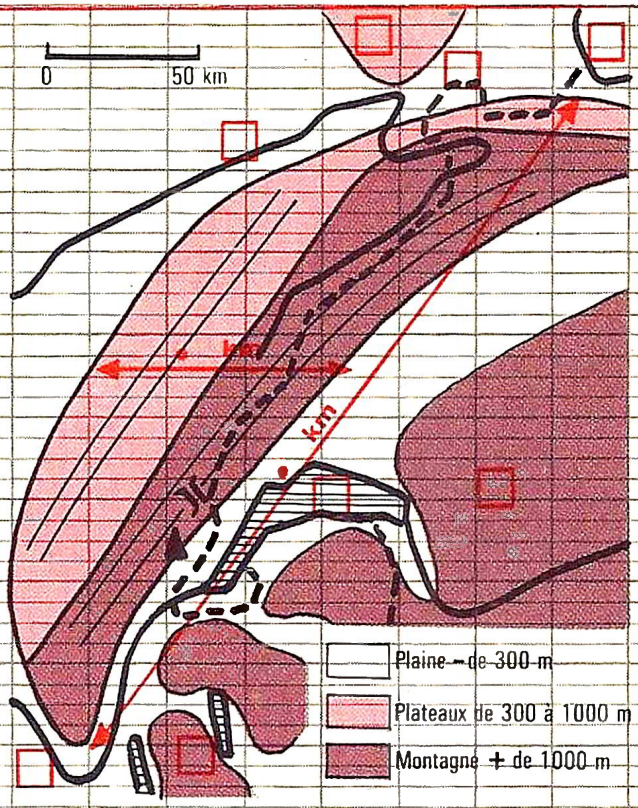

Mont-Blanc . m

Crêt de la Neige . m

Différence . m

5
Complétez le croquis avec :
. val . mont . cluse

Observez-le avant de répondre.

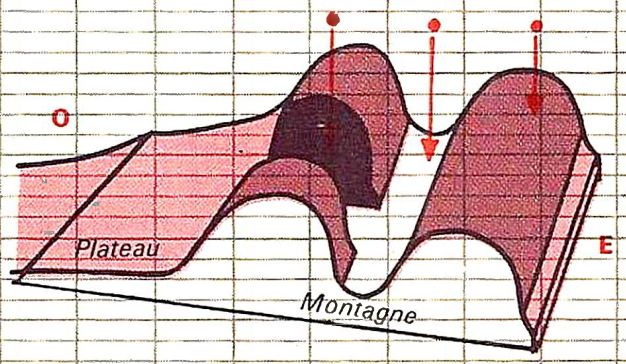

Les communications Ouest-Est sont facilitées par les .

6

Observez ces données avant de répondre :

		Ressources
Plateau	P	Élevage Culture
Montagne	M	Bois. Élev. Pet. Indust.
Vallée	V	Vigne. Blé Industrie

Dans quelle partie produit-on surtout :

- du gruyère ? ☐
- des automobiles ? ☐
- des pièces d'horlogerie ? ☐
- des bois de sciage ? ☐
- du vin ? ☐

7

Complétez le croquis avec :

1. forêts feuillues et prairies.
2. vigne et blé.
3. forêts de résineux.
4. pâturages d'été.

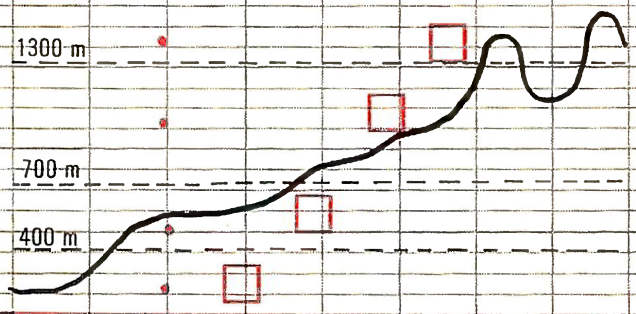

8

Carte du Jura.
En bleu, les cours d'eau.
En jaune clair, les plateaux.
En orangé, les montagnes.

Écrivez en place :

- *Rhône*
- *Doubs*
- *Rhin*
- *Léman*
- SUISSE
- ALPES
- VOSGES
- Crêt de la Neige
- Col de la Faucille
- Porte de Bourgogne



6 Les Pyrénées

1
Écrivez dans chaque ☐ le chiffre correspondant à la bonne réponse :

1 Atlantique
2 Espagne
3 Méditerranée
4 Garonne
5 Ariège
6 Pyrénées centrales
7 Pyrénées atlantiques
8 Pyrénées méditerranéennes

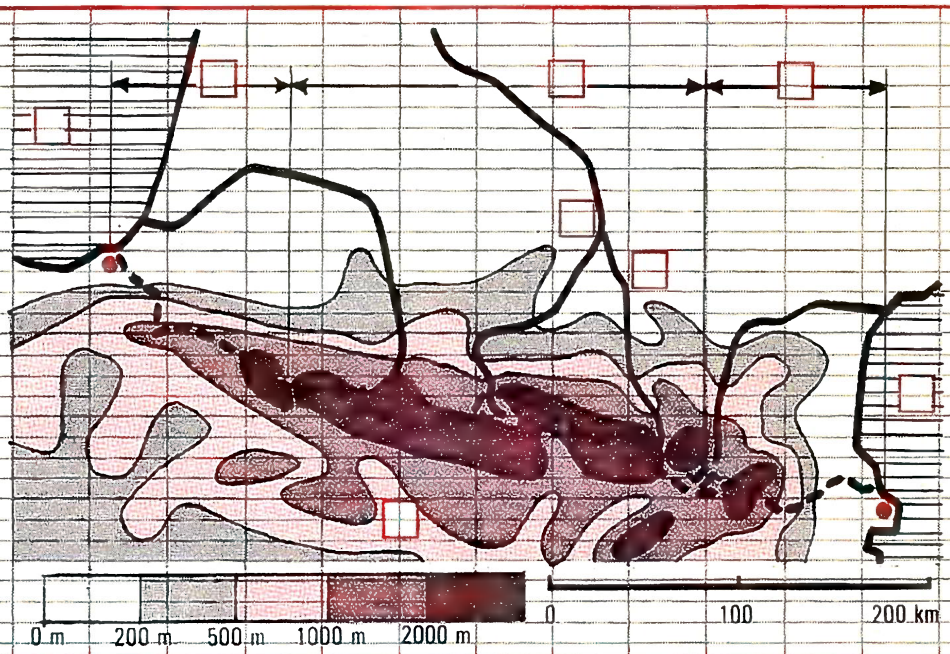

2
Utilisez l'échelle de la carte.

Les Pyrénées de l'Ouest à l'Est mesurent environ . km.

3
Coupe Nord-Sud des Pyrénées.
Écrivez où il faut :
• Espagne • France
N Nord S Sud

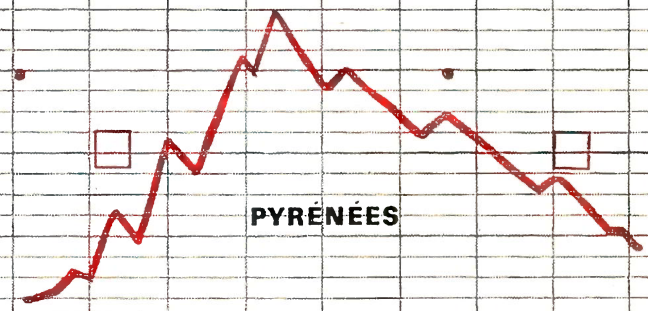

4
Quel est l'autre nom des cols pyrénéens?

Ce sont des .
comme dans Som .

5
Comment franchir les Pyrénées?
R facilement par route
T par tunnel de chemin de fer
E par col élevé.



6
Le pic d'Aneto mesure 3 404 m.

Hauteur du Mont-Blanc . m

Hauteur du Pic d'Aneto . m

Différence . m

7
Lequel ☒ n'atteint pas 3 000 m?

☐ Pic d'Aneto (ou Nethou).

☐ Mont Vignemale.

☐ Pic du Midi de Bigorre.

8
Carte des Pyrénées.
En bleu, côtes et cours d'eau.
En orangé, plus de 2 000 m.

Écrivez : *ATLANTIQUE* • *MÉDITERRANÉE*

Pic d'Aneto • Vignemale • Canigou

Col du Somport • Col de la Perche

Garonne • *Ariège* • *Adour* • *Aude.*

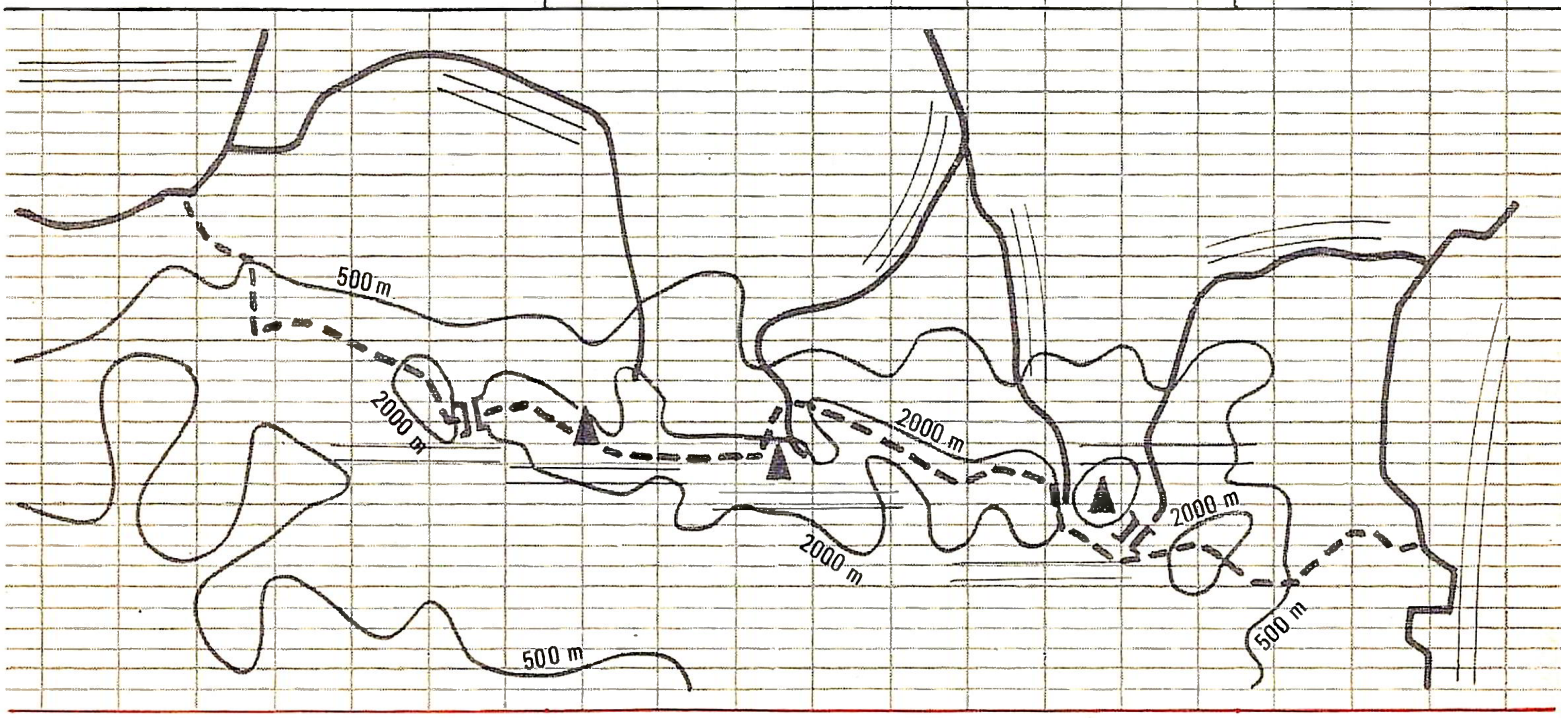

7 Les Vosges

1
Écrivez dans chaque ☐ le chiffre correspondant à la bonne réponse :

1 Plateau Lorrain
2 Alsace
3 Meurthe
4 Rhin
5 Ill
6 Moselle
7 Porte de Bourgogne

2
Calculez les dimensions NS et EO des Vosges. Écrivez les réponses aux endroits prévus.

3
Le plus haut sommet est le Ballon de Guebwiller (1 426 m). Écrivez ce nom et ce nombre en ▲.

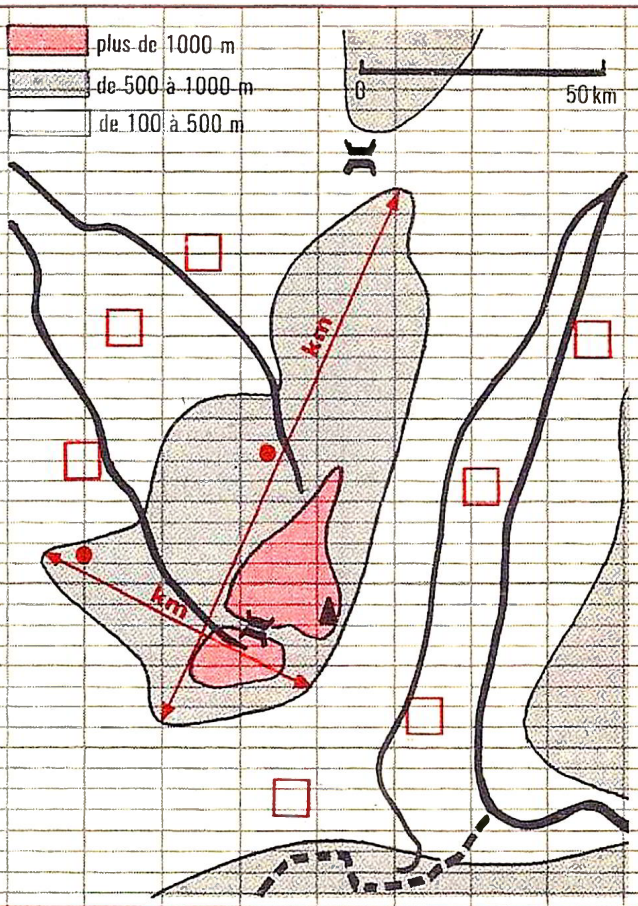

4
Revision : Quels sont ces sommets et leur altitude?

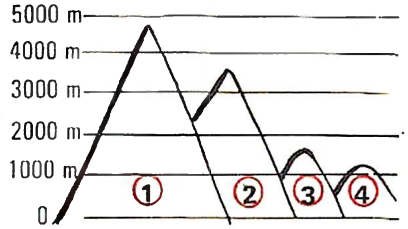

1 . . : . . m
2 . . : . . m
3 . . : . . m
4 . . : . . m

5
Indiquez par des flèches rouges les passages faciles de Paris vers Strasbourg, vers Mulhouse. Écrivez en place le nom de ces passages.

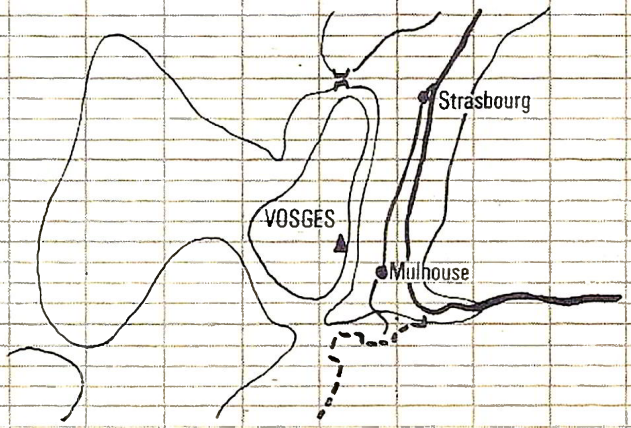

6
Observez, puis rayez ce qui est faux :

Le versant { est / ouest } est le plus abrupt.

Le versant { est / ouest } est le moins arrosé

7

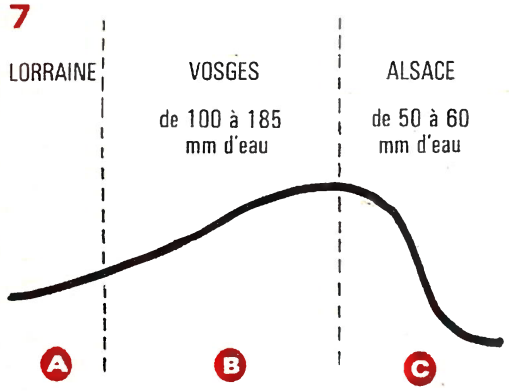

On pratique l'élevage en ○ ou ○

Filatures et tissages en ○

Bois sculptés en ○

Sciages de bois en ○

8
Carte des Vosges.

En bleu, les cours d'eau.
En orangé, plus de 1 000 m.

Écrivez en place :

- *Rhin*
- ALSACE
- LORRAINE
- *Ill*
- *Meurthe*
- *Moselle*
- JURA
- Col de Saverne
- Porte de Bourgogne
- Col de Bussang
- Ballon de Guebwiller (1 426 m)

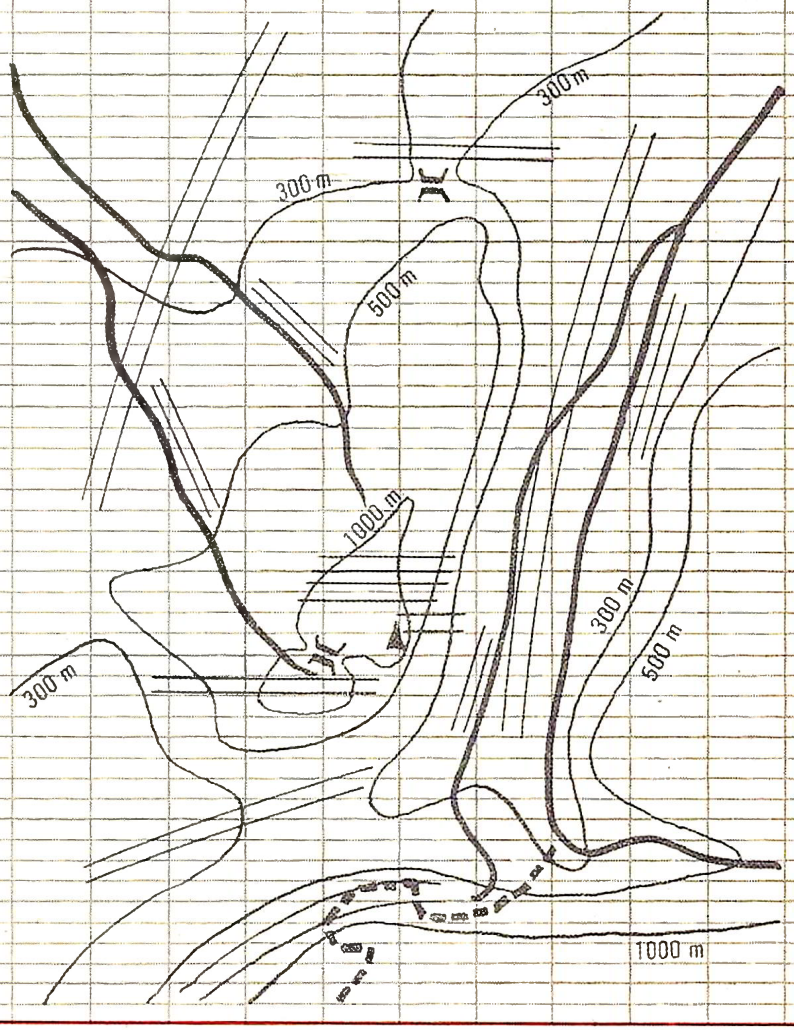

8 Le Massif Central

1
Écrivez dans chaque ☐ le chiffre correspondant à la bonne réponse :

1 Morvan
2 Cévennes
3 Causses
4 Limousin
5 Chaîne des Puys
6 Rhône
7 Loire
8 Allier
9 Dordogne
10 Tarn
11 Vienne.

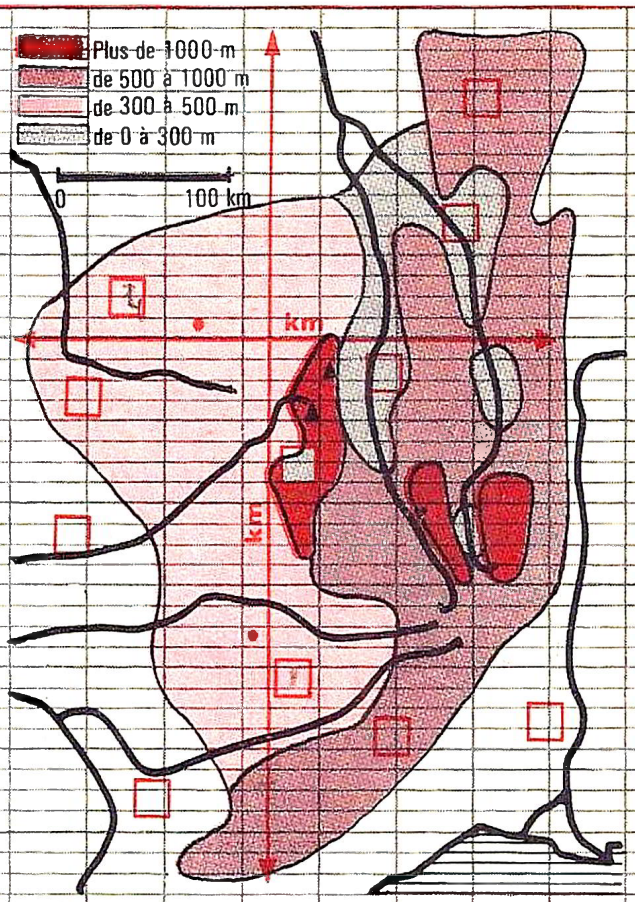

2
Calculez et écrivez en place les dimensions N-S et E-O du Massif Central.

3
Indiquez le trajet de l'eau venue du Massif Central et allant jusqu'à la mer.

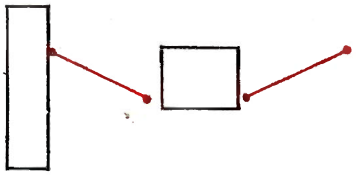

Massif Central

Rhône — Mer du Nord
Seine — Méditerranée
Loire — Manche
Garonne — Atlantique
Rhin

4
Revision : aiguilles, puy, ballon ou pic ?



① .
② .
③ .
④ .

5
Acceptez ☒ ou refusez ■ ce qui convient au Massif Central :

- ☐ Ses monts s'appellent ballons.
- ☐ C'est le château d'eau français.
- ☐ Ses grottes naturelles sont célèbres.
- ☐ On y fait du ski, l'été.
- ☐ Ses volcans sont en activité.
- ☐ Ses glaciers sont nombreux.

6
Carte du Massif Central.

En bleu, côtes et cours d'eau.
En jaune clair, de 500 m à 1 000 m.
En orangé, plus de 1 000 m.

Écrivez en place :

- *Loire*
- *Dordogne*
- *Tarn*
- Puy de Sancy
- MORVAN
- LIMOUSIN
- Puy de Dôme
- *Allier*
- *Lot*
- *Rhône*
- CÉVENNES
- CAUSSES
- LIMAGNE

9 Manche et Mer du Nord

1
Écrivez dans chaque ☐ le chiffre correspondant à la bonne réponse :

- [1] Manche
- [2] Mer du Nord
- [3] Angleterre
- [4] Flandre
- [5] Somme
- [6] collines de l'Artois
- [7] Bretagne
- [8] Pas de Calais
- [9] Seine
- [10] Normandie
- [11] Cotentin

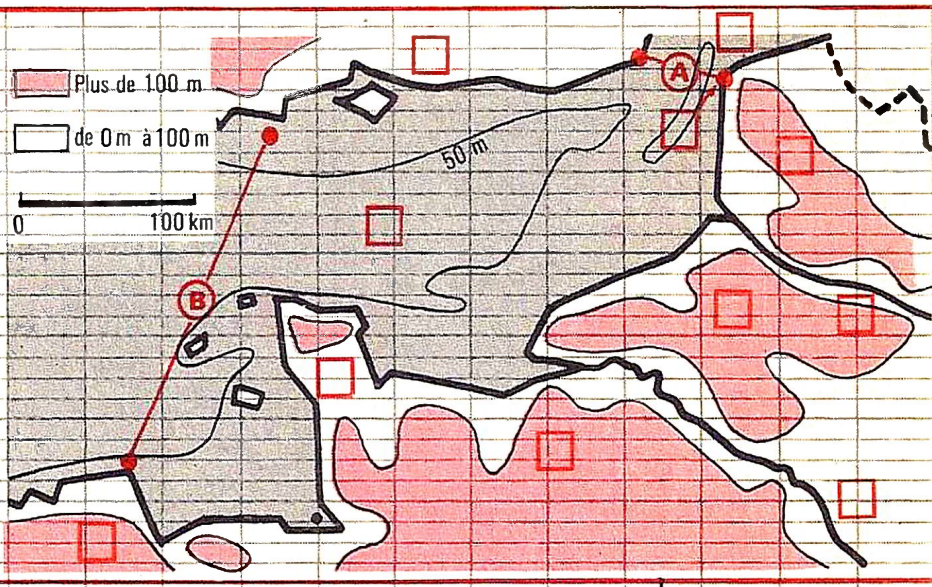

2
A l'aide de l'échelle, calculez la largeur de la Manche.

En Ⓐ la Manche mesure . . . km.

En Ⓑ la Manche mesure . . . km.

3
Dessinez les côtes selon leur aspect :

- ▬ rochers
- falaises
- sable.

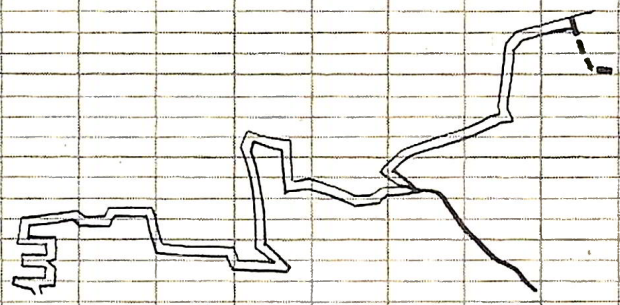

4
Vrai ☒ ou faux ☐ ?

- ☐ La Manche est très profonde.
- ☐ Les navires y sont nombreux.
- ☐ La Manche n'a pas de marées.
- ☐ La Manche est souvent agitée.

5
A chacun sa provenance.

harengs . . de la Manche.

maquereaux . . de la Mer du Nord.

6

Quels sont ces paysages?

Dunes, falaises ou rochers?



Bretagne, Normandie ou Flandre?

les . de .

les . de .

les . de .

7

Carte de la Manche et de la Mer du Nord.

En bleu, côtes et cours d'eau.
En orangé, les hauteurs de plus de 100 m.
En rouge, les ports : ◉

Écrivez en place :

• *MANCHE* • *MER DU NORD* • Cap Gris-Nez • Cap de la Hague

• Baie du Mt-St-Michel • Dunkerque

• Boulogne • Le Havre • Cherbourg

• BRETAGNE • NORMANDIE • ARTOIS

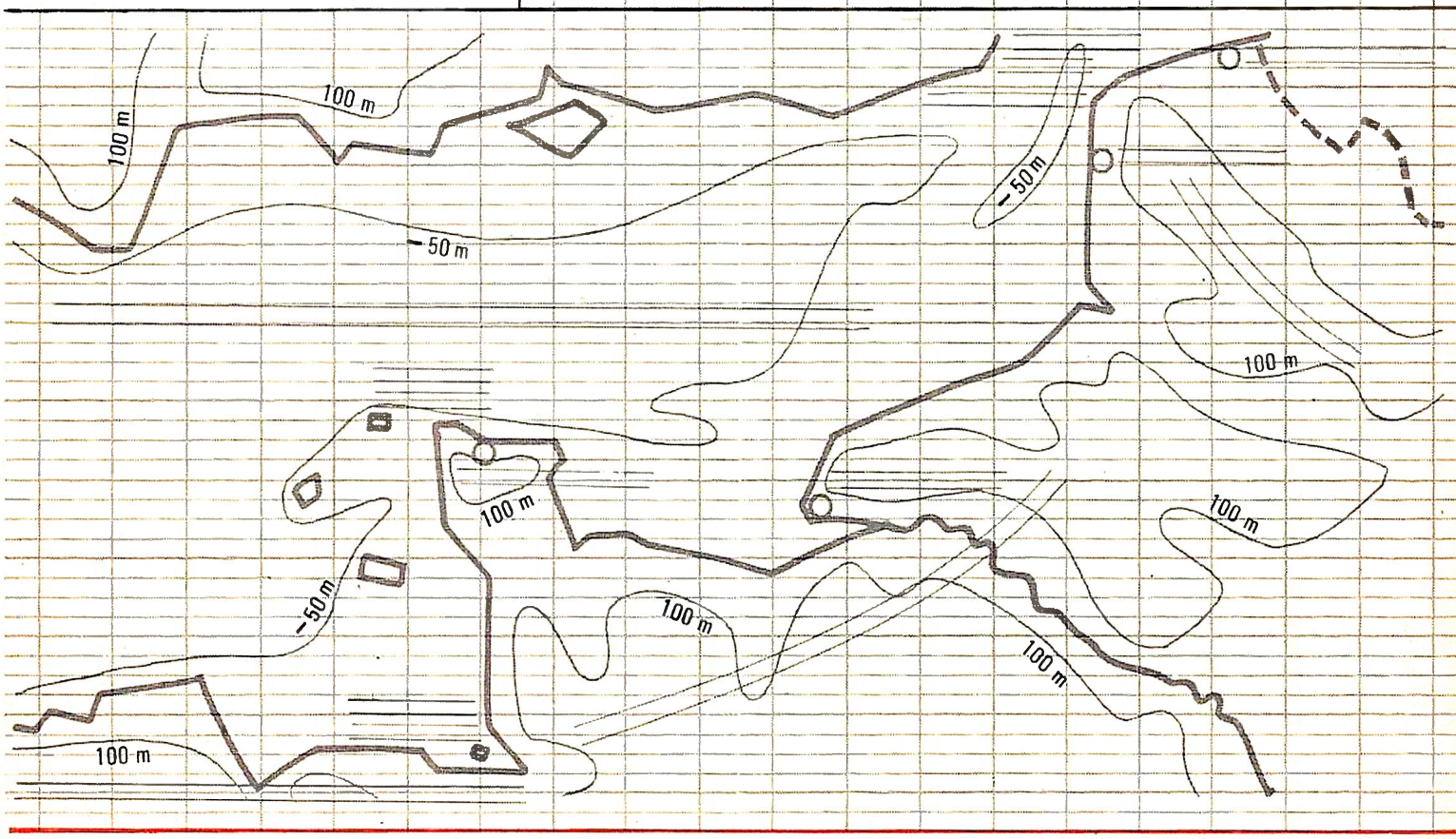

10 L'Atlantique

1
Ecrivez dans chaque ☐ le chiffre correspondant à la bonne réponse :

1 Bretagne 2 Vendée
3 Landes 4 Pyrénées
5 Loire 6 Charente
7 Gironde 8 Belle-Ile
9 Ile de Noirmoutier
10 Golfe de Gascogne.

Calculez la distance qui sépare Brest de Saint-Jean-de- Luz.

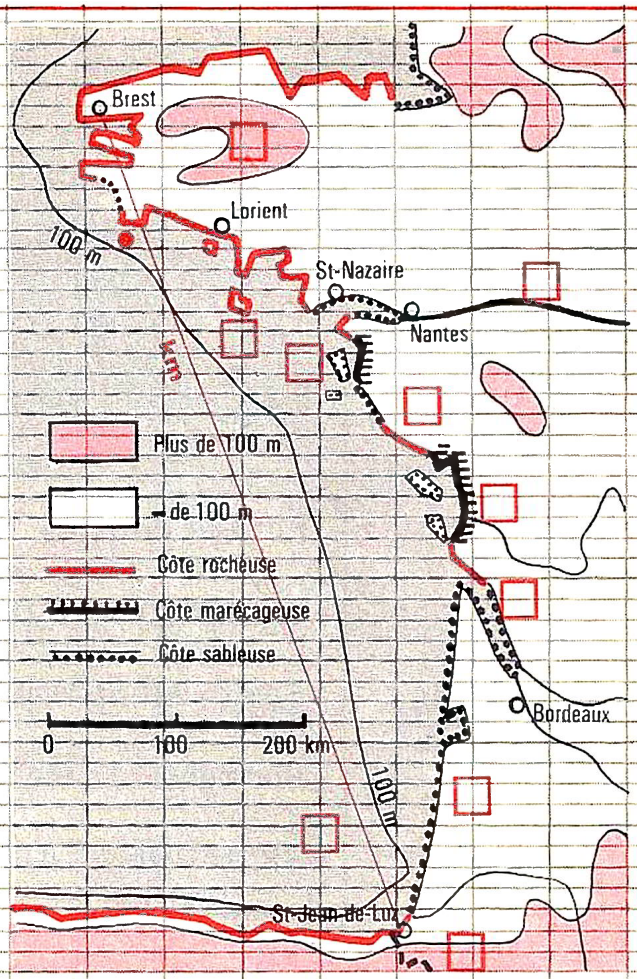

2
Vrai ☒ ou faux ☐?

☐ Près des côtes l'Atlantique est profond.
☐ L'Atlantique est un océan agité.
☐ Ses côtes sont généralement élevées.
☐ Les vents viennent souvent de l'Est.
☐ Les îles sont face aux côtes rocheuses.

3
Écrivez le nom de trois grands ports, bien abrités.

4
Dans chaque ☐ dessinez le symbole qui convient à la nature des côtes


sable


marais

rochers.

☐ ◂ Pointe de la Bretagne

Embouchure nord de la Loire ▸ ☐

☐ ◂ Côtes de la Vendée

Côtes des Charentes ▸ ☐

☐ ◂ Côtes des Landes

Côtes pyrénéennes ▸ ☐

5
Carte de l'Atlantique.
En bleu, côtes et cours d'eau.
En orangé, les régions dont l'altitude dépasse 200 m.
En rouge, les ports : ●

Écrivez en place :

- *Loire*
- *Gironde*
- NANTES
- BORDEAUX
- Belle-Ile
- Bassin d'Arcachon
- *Golfe de Gascogne*
- Ile de Noirmoutier
- *Charente*
- BREST
- ST-NAZAIRE
- Pointe du Raz
- Pointe de Grave
- Landes.

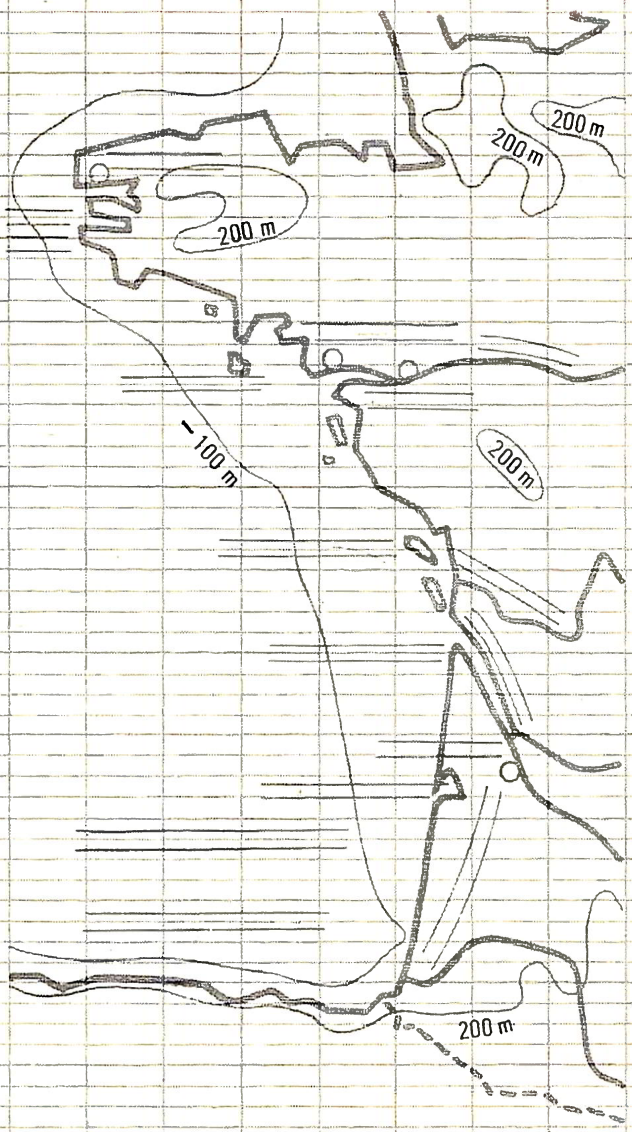

11 La Méditerranée

1
Écrivez dans chaque ☐ le chiffre correspondant à la bonne réponse :

1 Pyrénées 2 Alpes
3 Rhône 4 Languedoc
5 Camargue 6 Provence
7 Corse 8 Italie
9 Espagne 10 Golfe du Lion

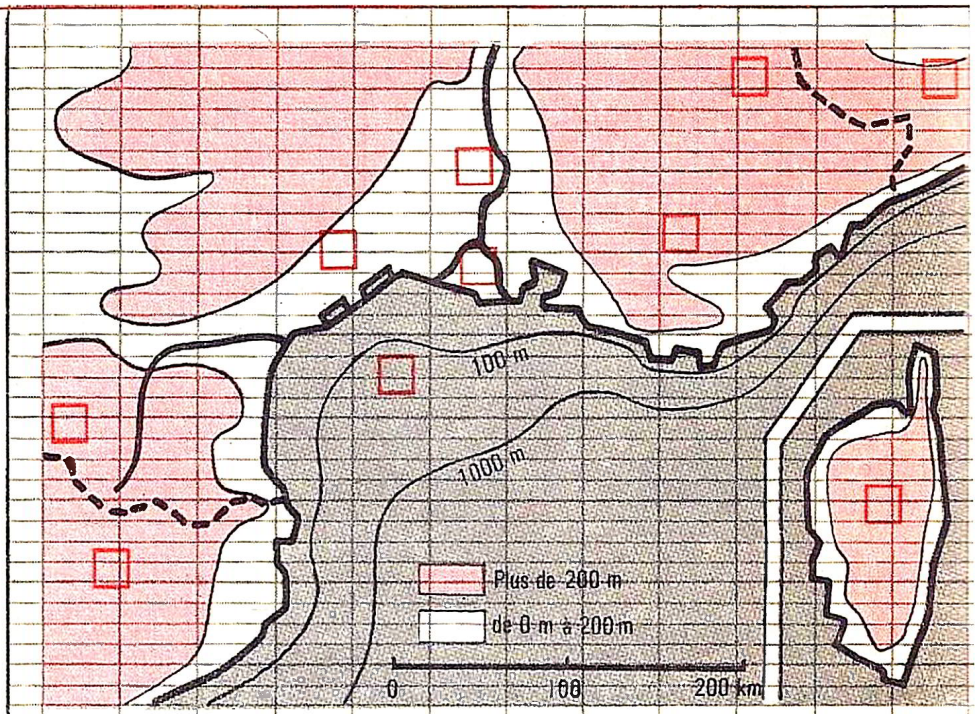

2
Vrai ☒ ou faux ☐?

☐ Le Golfe du Lion est peu profond.
☐ La Méditerranée est verte.
☐ Elle est profonde au Sud des Alpes.
☐ Ses eaux ne sont pas froides.
☐ Ses marées sont très fortes.
☐ Elle communique avec l'Atlantique.

3
A quelles parties de la côte correspondent ces types de paysages ☒?

☐ Languedoc
☐ Provence
☐ Corse (Est)

☐ Pyrénées
☐ Languedoc
☐ Provence

☐ Camargue
☐ Languedoc
☐ Corse(Ouest).

4

Quel genre de port est-ce : guerre, pêche ou commerce?

La Ciotat

Port-Vendres

Toulon

Nice

Marseille

Sète

Collioure

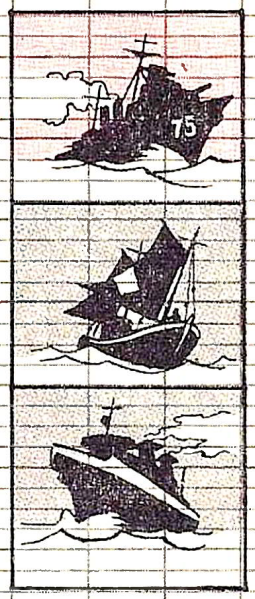

5

Carte de la Méditerranée.

En bleu,
côtes et cours d'eau.

En orangé,
hauteurs de plus de 200 m.

En rouge, les ports : ◉

Écrivez en place : *MÉDITERRANÉE* • Nice • PYRÉNÉES • ALPES • CORSE • Ajaccio • *Rhône* • *Étang de Berre* • Sète • *Golfe du Lion* • Marseille • Toulon • PROVENCE • LANGUEDOC • Port-Vendres.

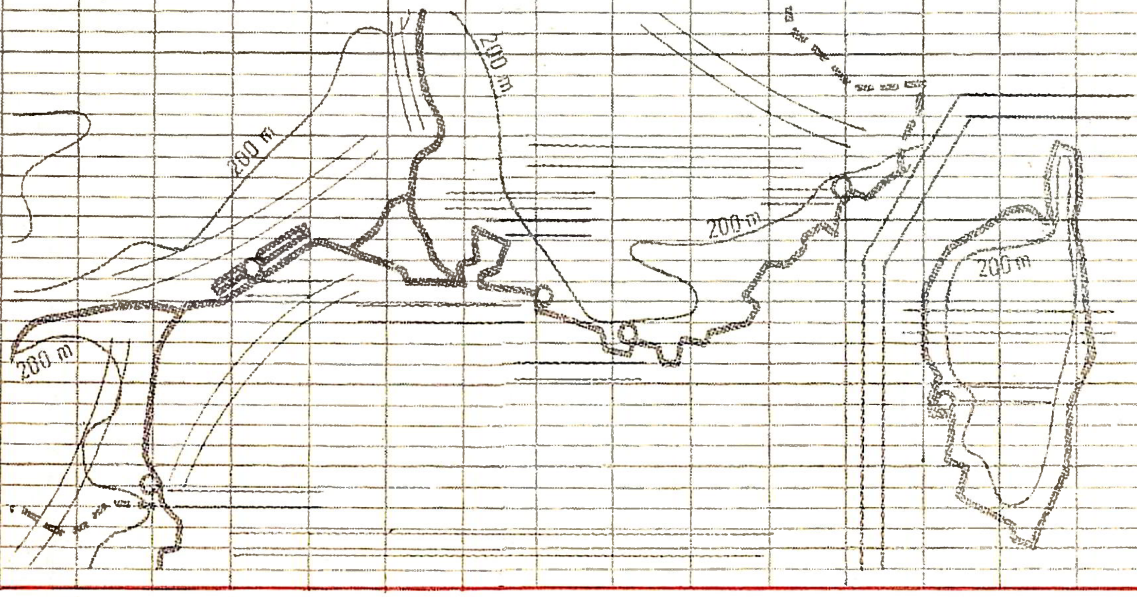

12 La Seine

1

Écrivez dans chaque ☐ le chiffre correspondant à la bonne réponse.

1 Troyes 2 Montereau
3 Plateau de Langres
4 Paris 5 Morvan
6 Manche
7 Collines du Perche.

Au crayon rouge(-----)cernez le bassin de la Seine.

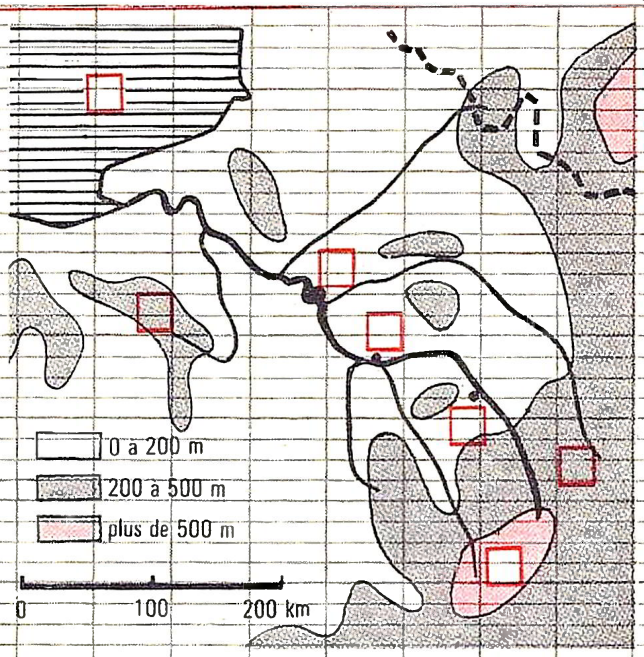

Observez bien la carte ci-dessus et les indications de l'exercice 3 :

L'altitude du bassin parisien est comprise entre 0 m et . m.

3

Voici les indications pour vous permettre de tracer le profil de la Seine :

Lieux	Altitude	Distances
Source	470 m	0 km
Troyes	120 m	190 km
Montereau	47 m	310 km
Paris	25 m	420 km
Mer	0 m	770 km

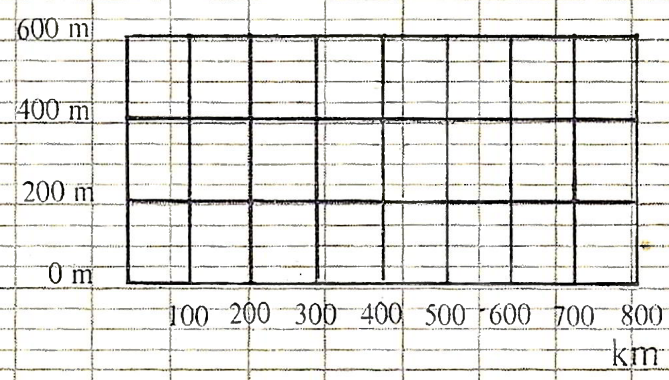

4

Calculez la pente moyenne de la Seine.

Altitude de source . m

Longueur . km

= . m/km

5
Voici le débit moyen
de la Seine à Mantes
(en mètres cubes/seconde) :

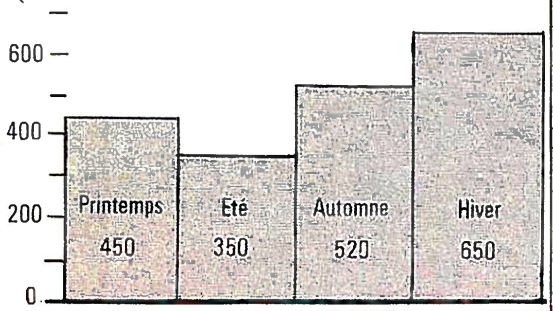

Le débit moyen de la Seine est le plus

fort en . → . m^3/s

faible en . → . m^3/s

Différence → . m^3/s

6
Observez le tableau du débit
de la Seine, puis sa pente
Indiquez : vrai ☒ ou faux ☐?

La Seine est un fleuve :

☐ régulier ☐ irrégulier

☐ rapide ☐ lent

7
Carte de la Seine.

En bleu, côtes et cours d'eau.
En rouge, les villes : ◎

Écrivez en place :

- *Eure*
- *Loing*
- *Marne*
- *Oise*
- *Aube*
- *Seine*
- *Yonne*
- Manche
- Le Havre
- Melun
- Paris
- Rouen
- Troyes

Soulignez 3 ports en rouge :

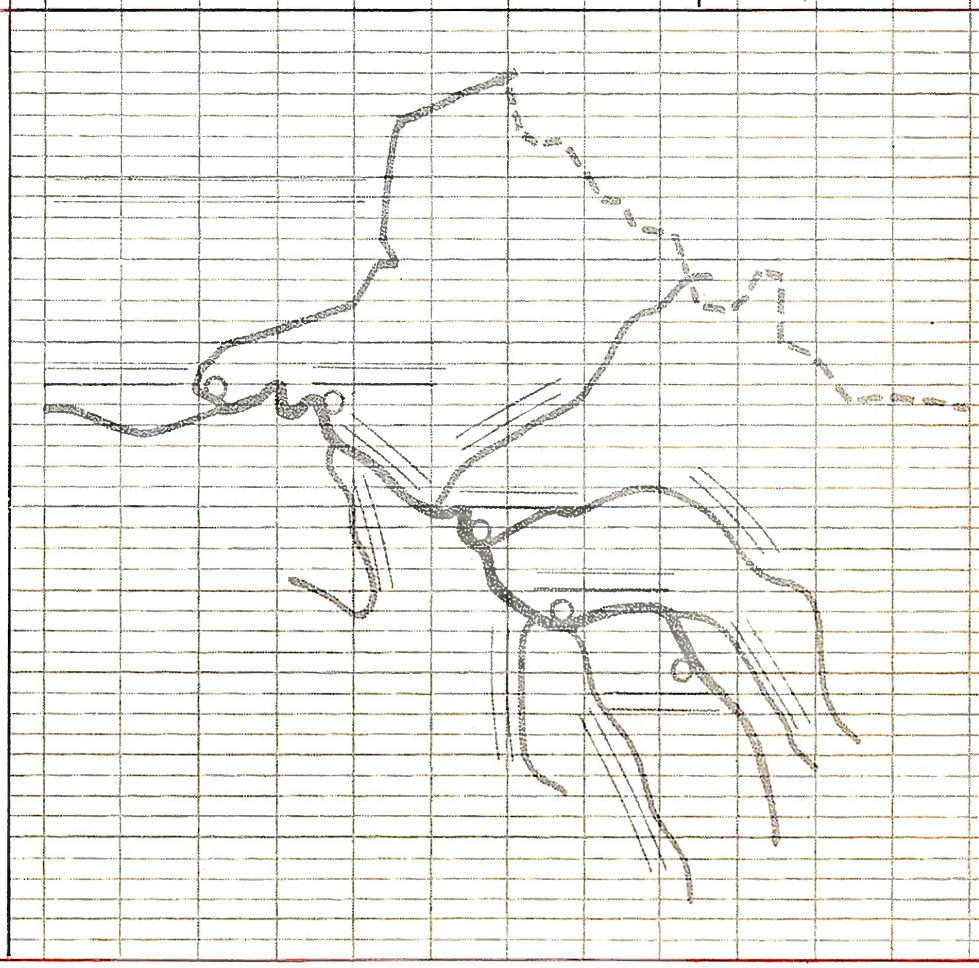

13 La Loire

1

Écrivez dans chaque ☐ le chiffre correspondant à la bonne réponse :

1 Massif Central

2 Mont Gerbier-des-Joncs

3 Collines de Normandie

4 Roanne 5 Atlantique

6 Orléans 7 Nevers

8 Confluent de la Vienne

Au crayon rouge (------) cernez le bassin de la Loire.

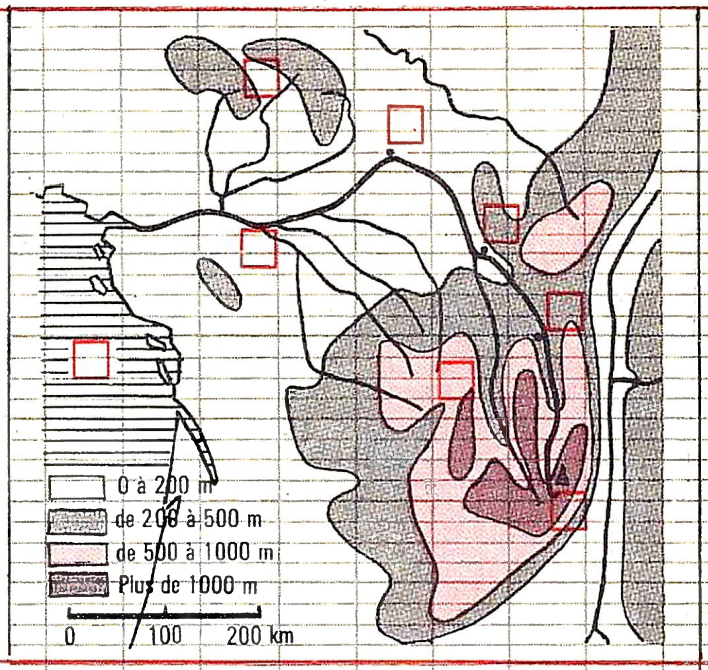

2

Voici des indications pour vous permettre de tracer le profil de la Loire:

Lieux	Source	Roanne	Nevers	Orléans	Confl Vienne	Océan
Altitudes	1 370 m	270 m	170 m	90 m	25 m	0 m
Distances	0 km	280 km	460 km	630 km	800 km	1 000 km

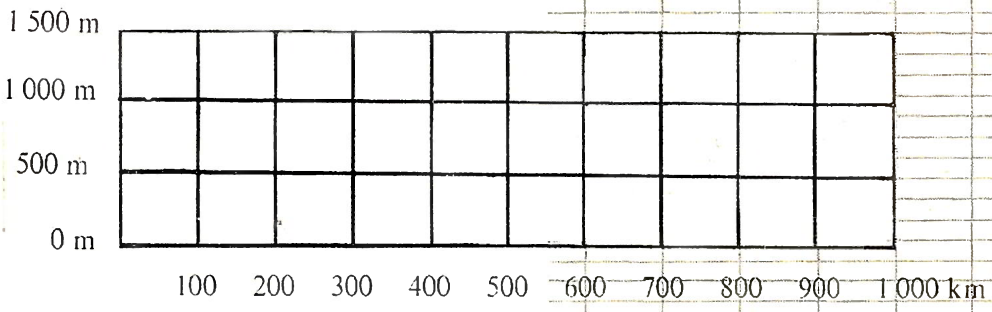

Tracez en la partie du cours où la pente est la plus forte

3

Calculez la pente moyenne de la Loire.

Comparez avec la Seine.

$$\frac{\text{Altitude de source} \quad \text{m}}{\text{Longueur} \quad \text{km}} = \quad \text{m/km}$$

La Loire est : lente ☐ , rapide ☐

4
Voici le débit moyen de la Loire près de Nantes (en m^3/s) :

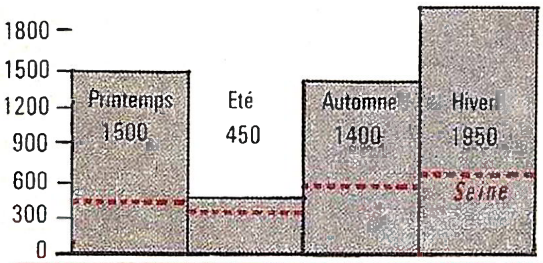

Le débit moyen de la Loire est le plus

fort en • ⟶ • m^3/s

faible en • ⟶ • m^3/s

Différence • ⟶ • m^3/s

5
Vrai ☒ ou faux ■ ?

☐ La Loire est un fleuve régulier.

☐ Vers Nantes la Loire est navigable.

☐ La Loire est un fleuve irrégulier.

☐ Vers Orléans la Loire est navigable.

6
Carte de la Loire.
En bleu, côtes et cours d'eau.
En bistre, plus de 1 000 m.
En rouge, les villes : •

Écrivez en place :

- *Loire*
- *Allier*
- *Cher*
- *Indre*
- *Vienne*
- *Maine*
- Mont Gerbier-des-Joncs
- *ATLANTIQUE*
- MASSIF CENTRAL
- Nevers
- Orléans
- Tours
- Nantes
- Saint-Nazaire

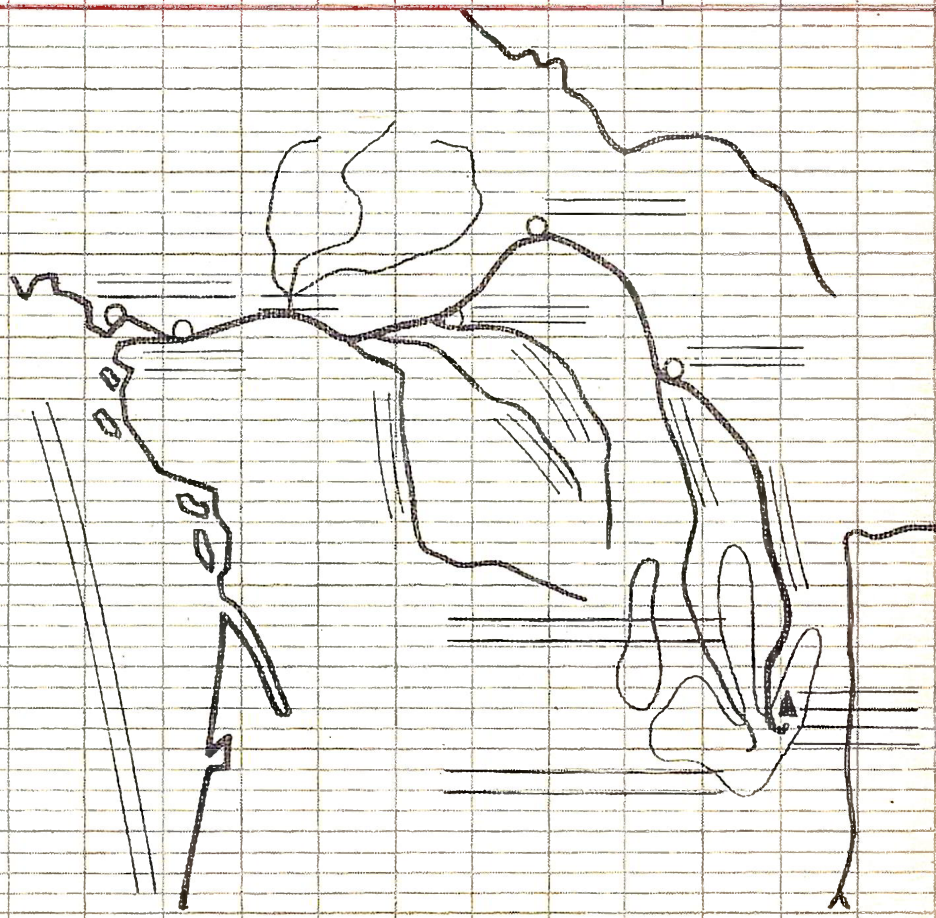

14 La Garonne

1

Écrivez dans chaque ☐ le chiffre correspondant à la bonne réponse :

☐1 Pyrénées ☐2 Massif Central
☐3 Espagne ☐4 Pic d'Aneto
☐5 Val d'Aran ☐6 Agen
☐7 Bordeaux ☐8 Toulouse
☐9 Gironde ☐10 Puy de Sancy

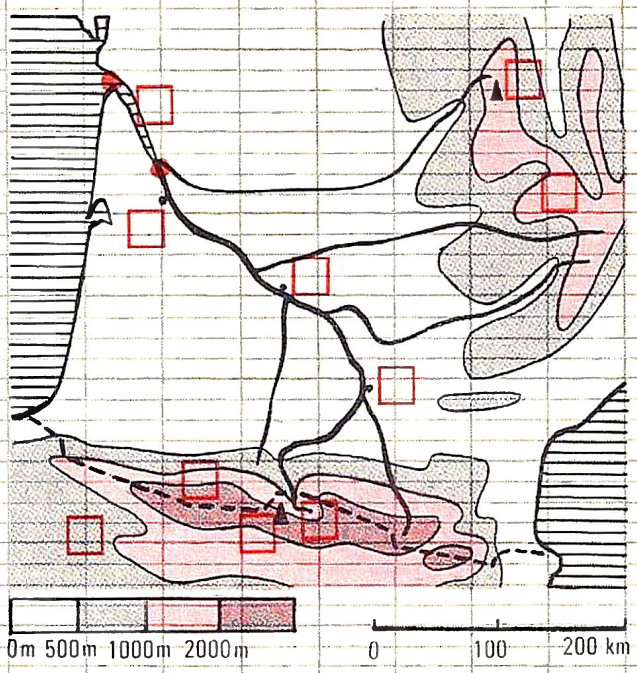

La Gironde mesure environ . km

Calculez la longueur de la Gironde de . à .

2

Voici les indications pour vous permettre de tracer le profil de la Garonne :

Lieux	Source	Toulouse	Agen	Bordeaux	Océan
Altitudes	1 870 m	122 m	43 m	2 m	0 m
Distances	0 km	220 km	350 km	580 km	650 km

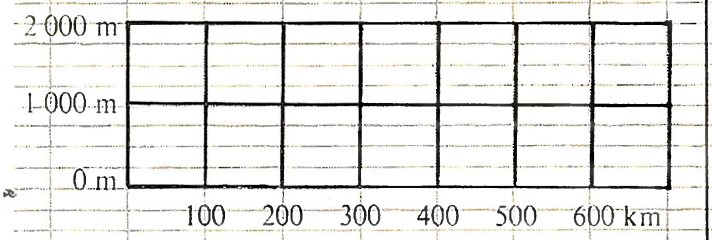

Tracez en rouge la partie du cours où la pente est la plus forte.

3

Calculez la pente moyenne de la Garonne.

$$\frac{\text{Altitude de source . m}}{\text{Longueur . km}} = \text{. m/km}$$

4

Voici le débit moyen (en m^3/s) : de la Garonne près de Bordeaux

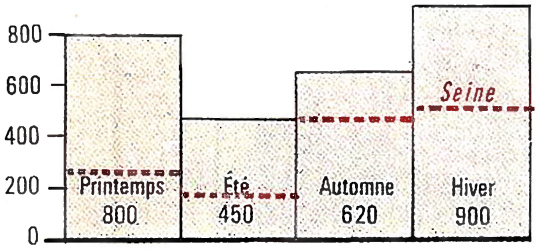

Comparez la Garonne à la Seine.

Vrai ☒ ou faux ☐ ?

Le débit moyen de la Garonne est

le plus fort en . . m^3/s

le plus faible en . . m^3/s

Différence . m^3.

☐ La Garonne roule moins d'eau.

☐ La Garonne coule plus vite.

☐ La Garonne a des crues plus grandes.

5

Carte de la Garonne.

En bleu, côtes et cours d'eau.
En bistre, les hautes montagnes.

En rouge, les villes : ◉

Écrivez en place :

- PYRÉNÉES
- MASSIF CENTRAL
- *ATLANTIQUE*
- *Garonne*
- *Tarn*
- *Dordogne*
- *MÉDITERRANÉE*
- Agen
- *Gironde*
- *Ariège*
- *Lot*
- *Gers*
- Toulouse
- Bordeaux

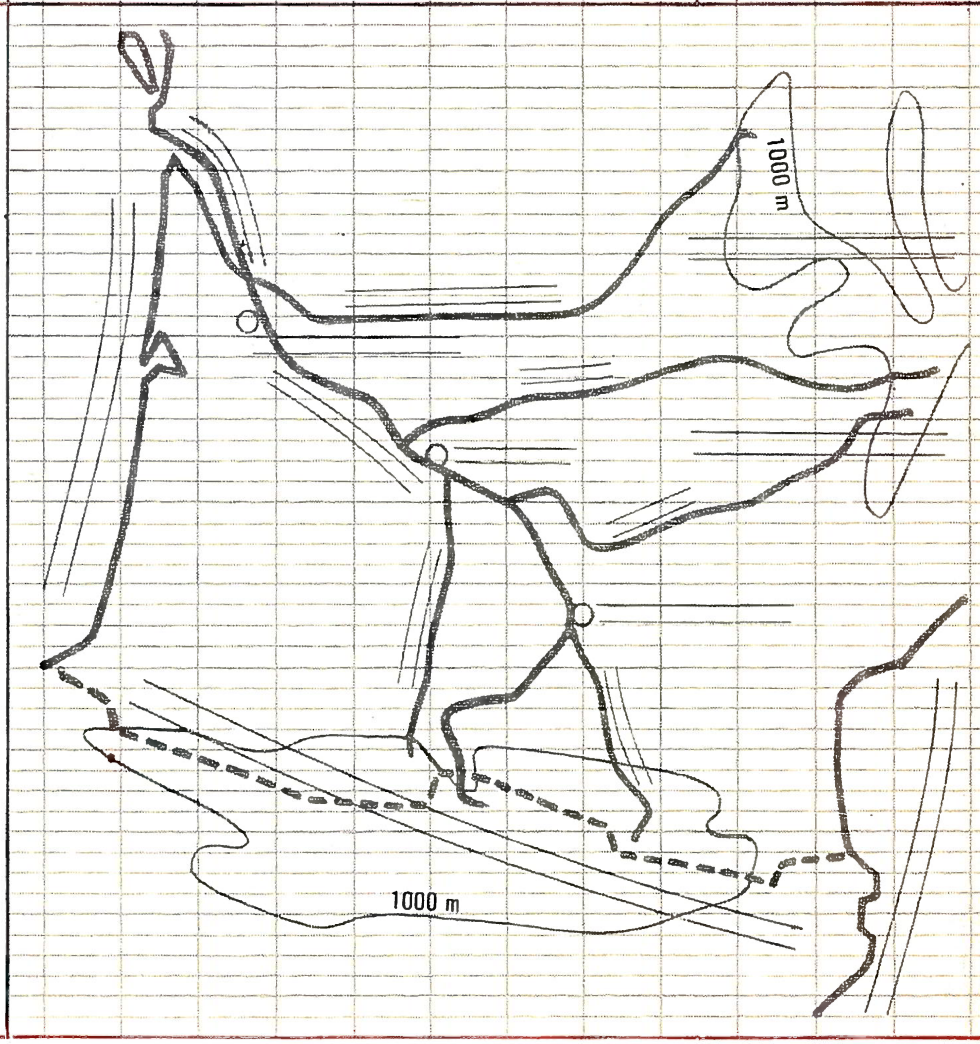

15 Le Rhône

1

Écrivez dans chaque ☐ le chiffre correspondant à la bonne réponse :

1 Alpes
2 Jura
3 Vosges
4 Massif Central
5 Léman
6 Méditerranée
7 Italie
8 Suisse
9 Lyon
10 Valence
11 Avignon
12 Camargue
13 Barrage Donzère-Mondragon
14 Barrage de Genissiat

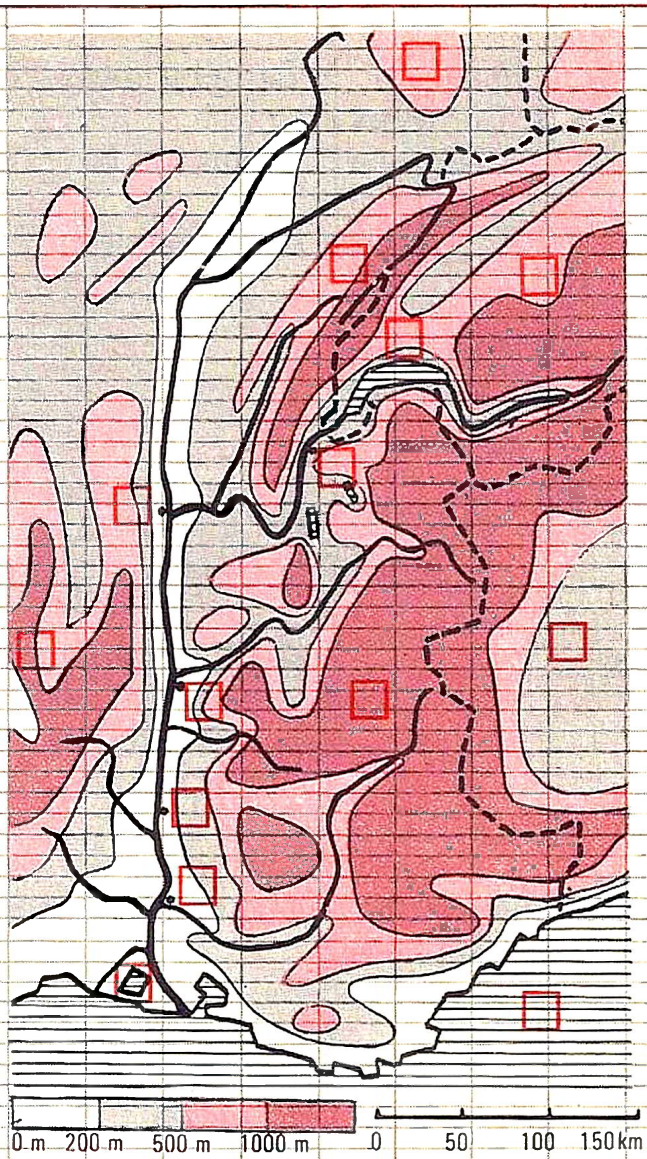

2

Lieux	Source	Léman	Lyon	Valence	Avignon	Mer
Altitudes	1 760 m	375 m	168 m	102 m	12 m	0 m
Distances	0 km	200 km	480 km	550 km	730 km	812 km

Tracez la pente :

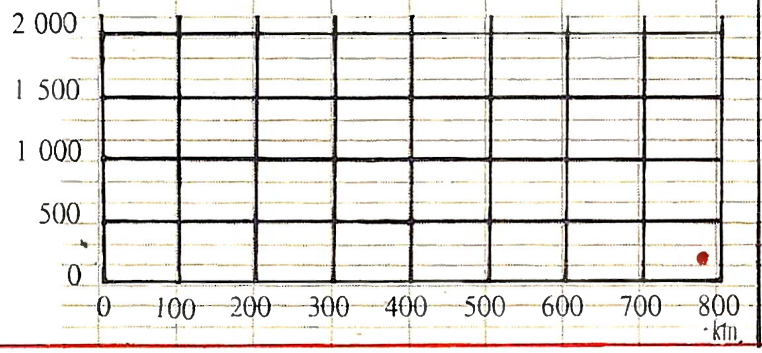

3
Calculez la pente moyenne du Rhône.

Altitude de source • m

— = • m/km

Longueur • km

4
Débit moyen près d'Avignon (m^3/s) :

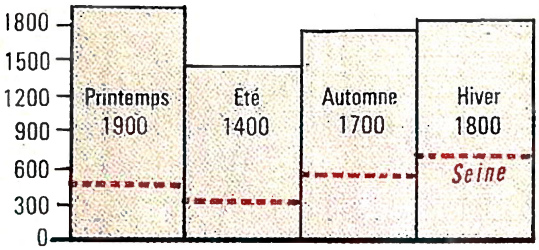

Le débit du Rhône est

le plus fort en • • m^3/s

le plus faible en • • m^3/s

Différence • m^3/s

5
Carte du Rhône.

En bleu, côtes et cours d'eau.
En bistre, les montagnes.
En rouge, les villes : •

Écrivez en place :

- ALPES
- *Léman*
- *Rhône*
- *Saône*
- *Ardèche*
- *Isère*
- *Durance*
- Valence
- MASSIF CENTRAL
- *MÉDITERRANÉE*
- *Ain*
- *Doubs*
- *Gard*
- *Drôme*
- Lyon
- Avignon

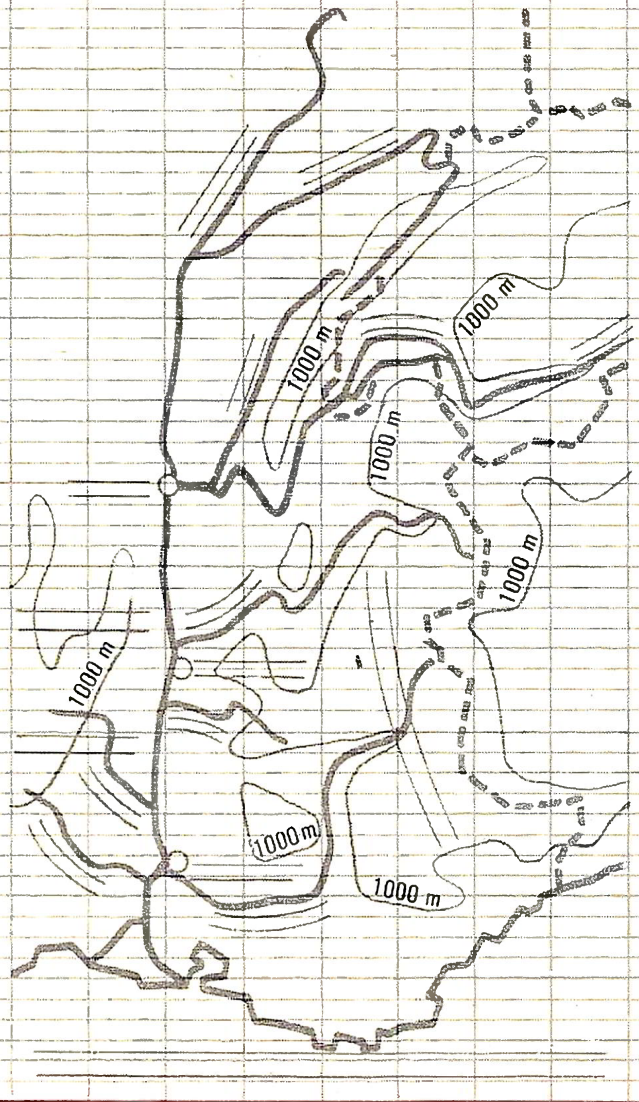

16 Fleuves côtiers et du Nord-Est

1
Écrivez dans chaque ☐ le chiffre correspondant à la bonne réponse :

1 Mer du Nord	2 Manche
3 Atlantique	4 Méditerranée
5 Somme	6 Rhin
7 Var	8 Moselle
9 Meuse	10 Escaut
11 Aulne	12 Vilaine
13 Charente	14 Adour
15 Aude	16 Hérault
17 Seine	18 Rhône
19 Loire	20 Garonne
21 Rance	22 Orne

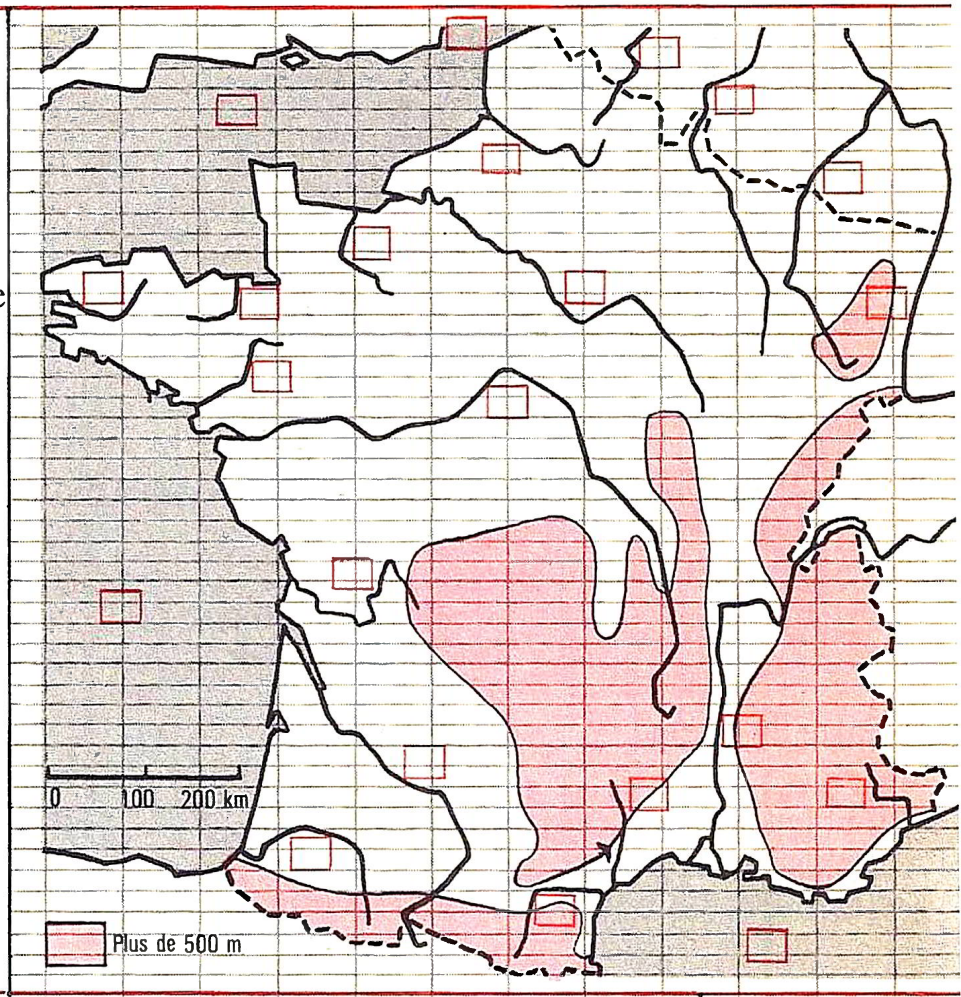

2
Classez (en écrivant 1 2 3 4) les quatre fleuves selon : leur débit moyen, leur longueur, leur pente.

	Seine	Loire	Garonne	Rhône
Débit	☐	☐	☐	☐
Longueur	☐	☐	☐	☐
Pente	☐	☐	☐	☐

3
Vrai ☒ ou faux ☐ ?

Des quatre fleuves français :

☐ Le Rhône est le plus abondant.

☐ La Seine est le plus navigable.

☐ Le Rhône est le plus rapide.

☐ La Seine est le plus régulier.

4
Calculez d'après l'échelle.

Le cours du Rhin en France

mesure environ . km

5
Classez ces fleuves côtiers :

	Crue	Basses-eaux
Somme	88 m³/s	35 m³/s
Aude	3 000 m³/s	5 m³/s
Charente	480 m³/s	80 m³/s
Var	5 000 m³/s	17 m³/s

Fleuves réguliers	Fleuves irréguliers
.	.
.	.

6 Attribuez leur le pont qui conviendrait le mieux



Le pont n° ☐ pour l'Aude.

Le pont n° ☐ pour le Var.

Le pont n° ☐ pour la Charente.

Le pont n° ☐ pour la Somme.

7
Carte des cours d'eau du N.E.

En bleu, côtes et cours d'eau.
En orangé, le relief.
En rouge, les villes : ◉

Écrivez en place :

- *Rhin*
- *Moselle*
- *Meurthe*
- *Ill*
- *Escaut*
- *Meuse*
- *MER DU NORD*
- ARDENNES
- VOSGES
- ALLEMAGNE
- BELGIQUE
- HOLLANDE
- Strasbourg
- Nancy

17 La population française

1
Construire la courbe de variations de la population française (en millions d'hab.).

Dates	1789	1810	1830	1850	1870
Habitants	25	31	33	36	37

Dates	1890	1910	1930	1950	1965
Habitants	40	41,5	41,8	42	48

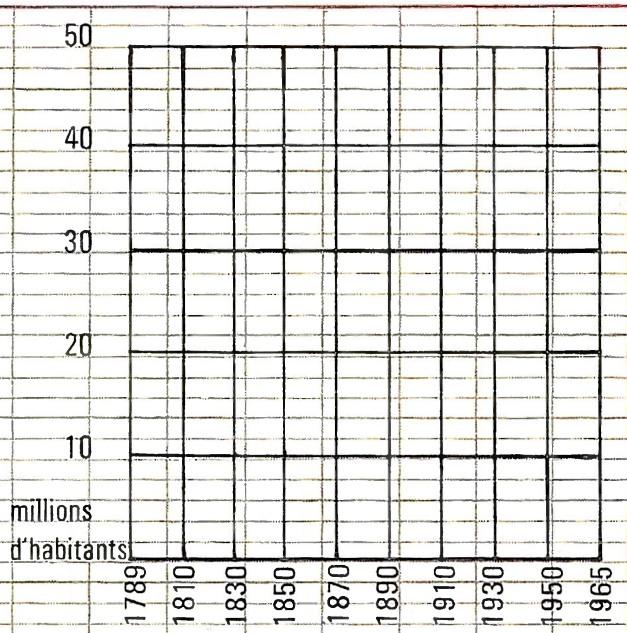

2
Accroissement de la population :

1965 . . . millions d'habitants.

1789 . . . millions d'habitants.

En . . . ans . . . millions d'habitants.

3
Calculez la densité moyenne de la population de ces états.

Nombre d'habitants divisé par superficie en km².

	France	Pays-Bas	Belgique	Italie	Allemagne fédérale	Grande-Bretagne
Population (millions d'hab.)	48	12	9,5	51	58	55
Superficie (milliers de km²)	550	34	30	301	250	250
Densité au km²	.	.	.	.	.	.

4 Concluez :

La plus forte densité en .

La plus faible densité en .

Le pays le plus peuplé est .

5
Complétez ce tableau et concluez :

DATES	1789	1965
Population des campagnes	80 %	60 %
Population des villes	.	.

Les Français désertent les .

Ils se concentrent dans les .

6
La région parisienne compte 8 millions d'habitants. Coloriez en rouge la part représentée par cette région.

← Population de la France →

7
Carte de la population :

En orangé, secteurs peuplés.

Écrivez en place le nom des plus grandes villes :

- PARIS
- Marseille
- Nice
- Nantes
- Lille
- Le Havre
- Lyon
- Toulouse
- Bordeaux
- Strasbourg
- St-Étienne

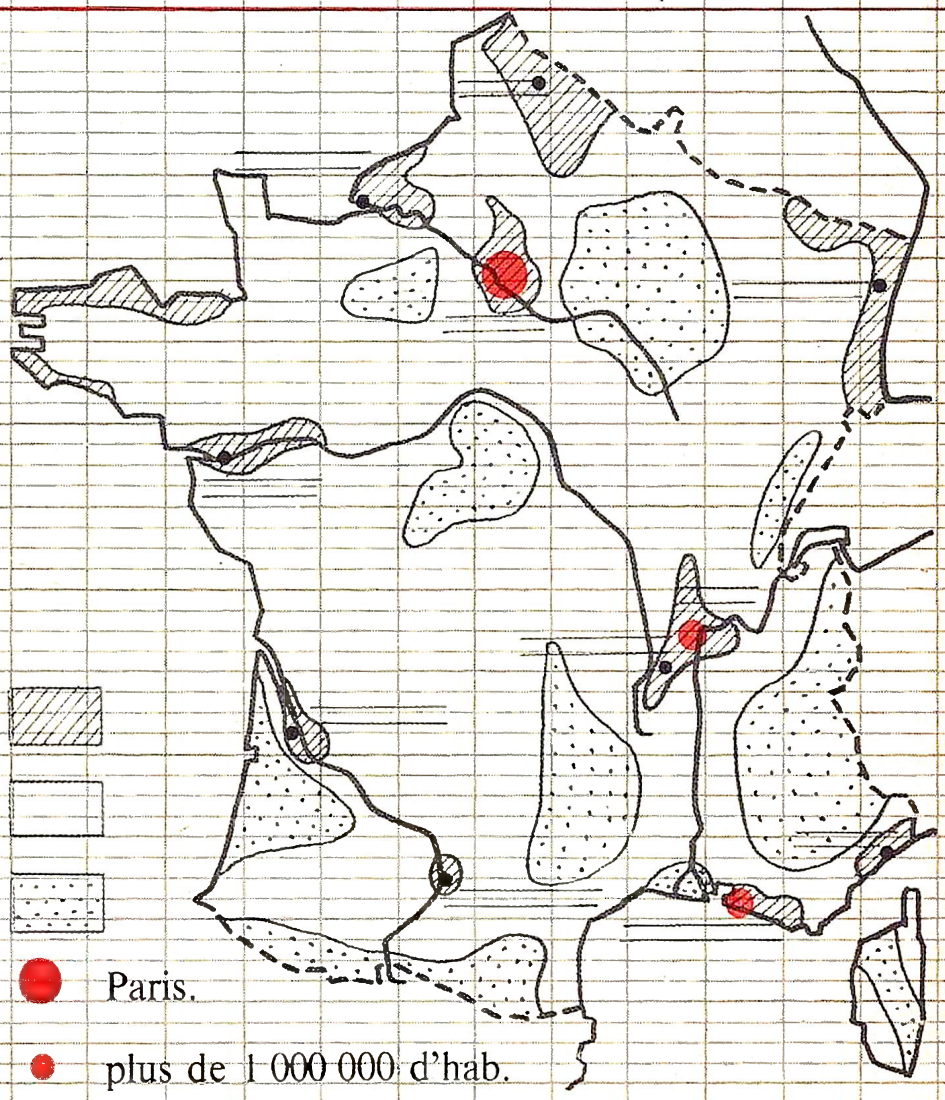

18 La vie rurale : habitations

1

Forme des habitations

Voici une maison-bloc [1]

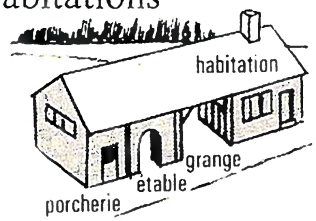

Voici une maison-cour [2]

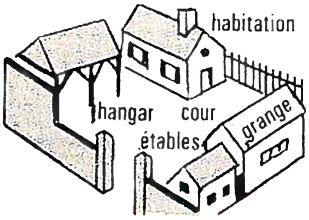

Paysans, bêtes et récoltes sont logés sous le même toit : maison .

Paysans, bêtes et récoltes sont logés sous des toits différents : maison .

Les bâtiments encerclent la cour : [1] ou [2].

La cour encercle les bâtiments : [1] ou [2].

2 Observez les 2 cartes et complétez.

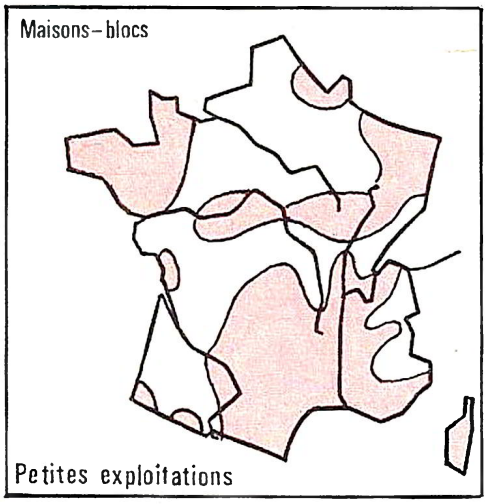

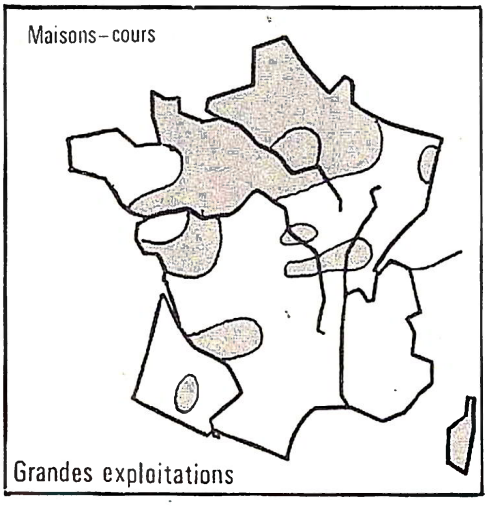

Bretagne : maisons .
: . exploitations

Val de Loire : maisons .
: . exploitations

Nord : maisons .
: . exploitations

Massif Central : maisons .
: . exploitations

Bassin Parisien : maisons .
: . exploitations

Midi et Corse : maisons .
: . exploitations

Normandie : maisons .
: . exploitations

3
Situation des maisons

• Groupées ou • dispersées ?

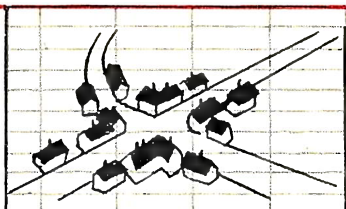

Habitations •

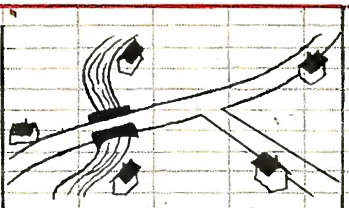

Habitations •

4
Types de villages

Carrefour, rue, pont, vallée, perché ou fortifié ?

Village •

Village •



Village •

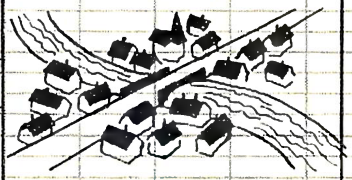

Village •



Village •

Village •

5
Le nom du village dit souvent sa forme :

Pontaubin : village •

Champaumont : village •

Longueville : village •

Villefort : village •

Noblenval : village •

19 La vie rurale : ressources

1
Complétez la description :

Bocage

Campagne

• Plaine découverte, champs allongés sans clôture, habitations groupées : c'est un paysage de .

• Champs de formes irrégulières enclos de haies, habitations dispersées : c'est un paysage de .

2
Coloriez les cases qui vont ensemble : les unes en jaune, les autres en vert.

CHAMP	BOCAGE	
	CAMPAGNE	PRAIRIE

3
Bocage B ou bien
Campagne C ?

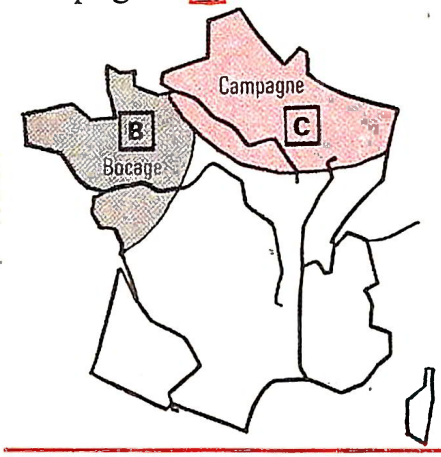

Dans les régions	domine :
du Nord	☐
de l'Est	☐
du Bassin Parisien	☐
de Bretagne	☐
de Vendée	☐

4
La production du sol :

36 % 44 % ?

Terres non cultivées et bois	Alimentation des animaux	Alimentation des hommes
36 %	44 %	%

5

Petites, moyennes ou grandes propriétés agricoles ?

10 ha 50 ha plus de 50 ha

Sur 100 propriétés

Petites	Moyennes	Grandes
55	40	•

En France les •

et • propriétés

dominent.

6

Quelle est la ressource essentielle d'un pays de grande culture ?

En jaune, la surface qu'elle occupe dans le carré.

Ressources d'un village de Beauce :

1. Inculte 3 %
2. Prairies 2 %
3. Bois 7 %
4. Culture 88 %

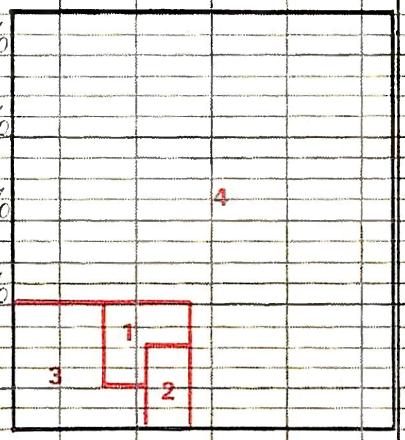

C'est l' •

7

Quelle est la ressource essentielle d'un pays de montagne ?

En vert, la surface qu'elle occupe dans le carré.

Ressources d'un village des Htes-Alpes

1. Inculte 12 %
2. Culture 12 %
3. Vergers 3 %
4. Bois 19 %
5. Élevage 54 %

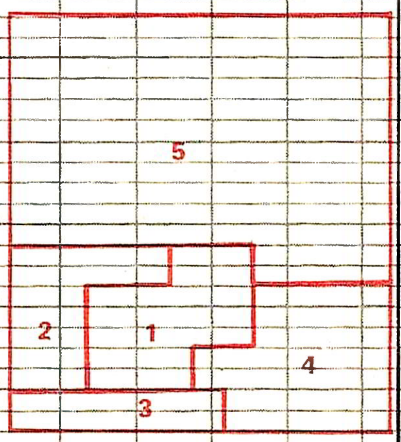

C'est l' •

20 Le blé...

1

Le blé

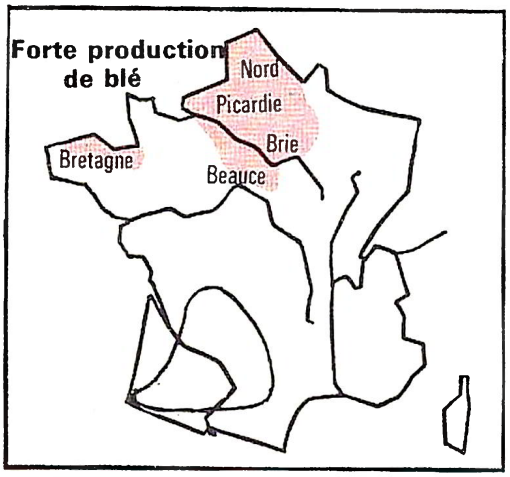

Les régions de forte production sont :

• •

• •

et •

☐ on le sème surtout dans les plaines.

☐ on le sème sur le flanc des montagnes.

2

Produit-on assez de blé en France, avec 10 millions de tonnes par an ?

Pour un Français il faut : 175 kg de blé par an.

Pour 48 millions de Français

il faut 175 kg × 48 000 000 =

soit : • kg

ou • millions de t

☐ la production est déficitaire.

☐ la production est excédentaire.

Vrai ☒ ou faux ☐ ?

3

Avec ces données construire la courbe du rendement moyen en blé.

Années →	1810	1830	1850	1870	1890	1910	1930	1950	1965
Qx à l'ha →	6	8	10	11	13	13	14	18	30

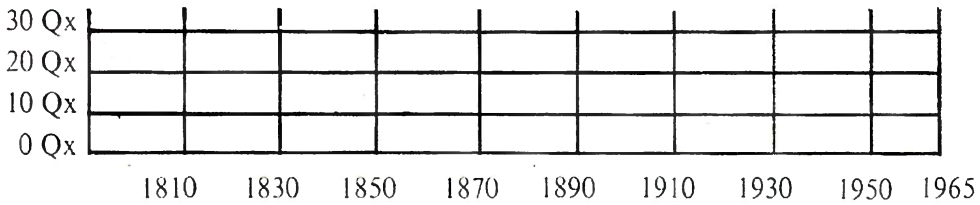

Concluez : 1965 = • fois le rendement de 1850.

et les cultures industrielles

4
La betterave à sucre

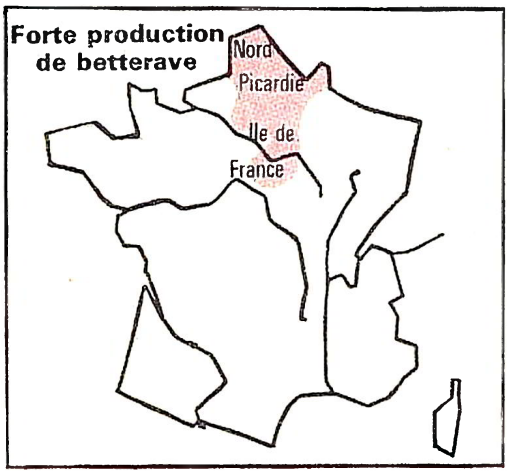

Les grandes régions productrices sont:

•

•

•

Rayez la culture qui ne se fait pas avec celle de la betterave.



5
Le maïs, le tabac, le riz

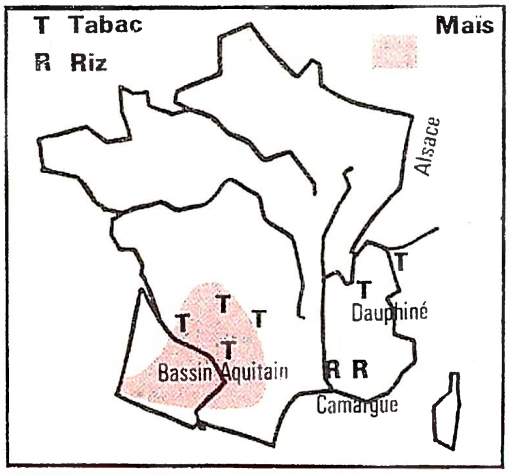

Le maïs est cultivé pour son .

Le tabac est cultivé en .

et dans le .

☐ Le riz aime l'eau — oui ☒

☐ Le riz aime le soleil — non ☐

le riz pousse en .

6
La pomme de terre

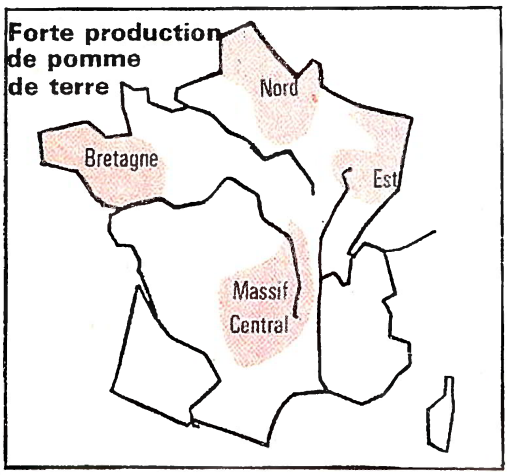

La pomme de terre pousse partout mais surtout .

•

•

•

Elle est la nourriture des .

et celle des .

21 La vigne et les boissons

1

Les boissons en France

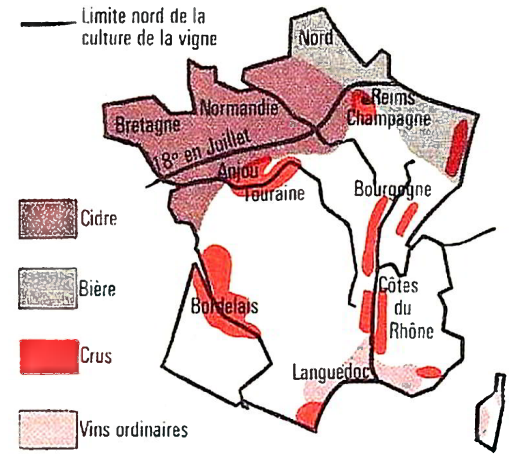

On consomme surtout de la bière dans les régions du . . de . .

On consomme surtout du cidre dans la . et la . .

La vigne est rare au-dessus de la Loire en . et en . .

2

Complétez :



La vigne a besoin de .

Dans le midi elle pousse en .

Ailleurs sur le flanc des .

3

France : 60 millions hl →

Chaque Français : 120 l par an

48 000 000 de Français boivent

☒ Déficit ou ☐ excédent ?

C'est-à-dire . litres

→ . litres

☐ . litres

4

Reconnaissez le cru à la forme des bouteilles :

① Champagne.

② Alsace.

③ Bordeaux.

④ Bourgogne.



Légumes, fruits et fleurs

5
Les légumes Vrai ☒ ?

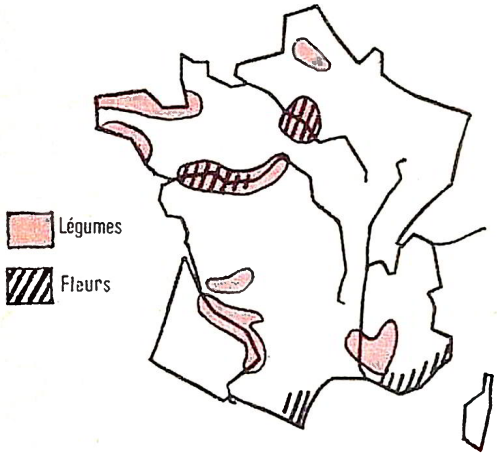

On produit surtout les légumes dans

- ☐ la banlieue des grandes villes.
- ☐ les grandes plaines françaises.
- ☐ les vallées au climat doux.
- ☐ la Bretagne côtière.
- ☐ les régions de l'Est.

6
Les fruits : complétez .

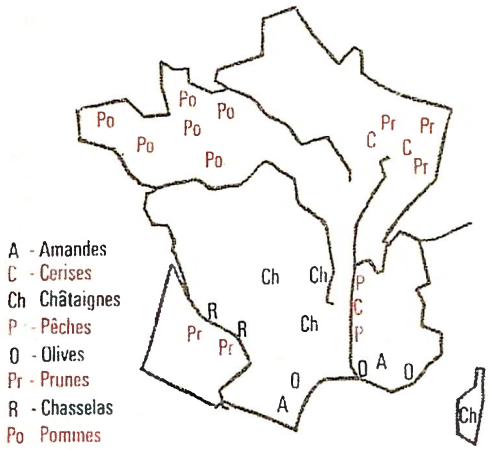

Régions	Récoltes
.	Olives
Normandie-Bretagne	.
.	Châtaignes
Vallée de la Garonne	.
.	Pêches-cerises
Alsace-Lorraine	.

7
D'où viennent-ils surtout ?

- . Roussillon
- . Cavaillon
- . Nantes
- . Bretagne
- . Agen
- . Touraine

Les artichauts d.
Les melons d.
Les prunes d.
Les roses d.
Les abricots d.
Les carottes d.

22 L'élevage ...

1
Bovins ou moutons ?

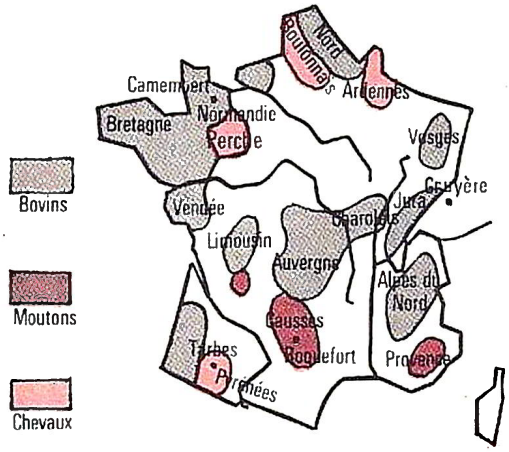

Sols : Quoi ?

Régions humides .

Régions sèches .

Vallées .

Montagne .

Forêt des Landes .

2
Choisissez la région :
. Périgord . Perche
. Bresse . Auvergne

Les poulets d.

Les foies gras d.

Les jambons d.

Les chevaux d.

3
Pourquoi élève-t-on des bovins

pour la viande V

ou pour le lait ? L

Dans le Charolais ☐

En Bretagne ☐

Dans les Vosges ☐

En Limousin ☐

En Normandie ☐

4 Reconnaissez-les :



Le . de Normandie

Le . des Causses

Le . du Jura

et les forêts

5
Les forêts : 1/5 de la France.

Riches ou pauvres ?

Artificielle ou naturelle ?

Richesse ou calamité ?

La France : km² de forêts

La forêt couvre les terrains .

La forêt des Landes est .

Les forêts sont une .

6
Indiquez l'utilisation de ces arbres :

Chênes	Bouchons.
Chênes	Poteaux.
liège	Pâte à papier.
	Résine.
Sapins	Charpentes.
Pins	Ébénisterie et planches.

7
Carte des forêts.

En bleu, les côtes.
Dessinez à chaque • l'arbre correspondant à la forêt qui s'y trouve.

Sapins :
Vosges, Jura, Alpes du Nord

Châtaigniers:
Massif Central

Pins :
Landes, Provence

Chênes, hêtres :
Ile-de-France, Nord-Est

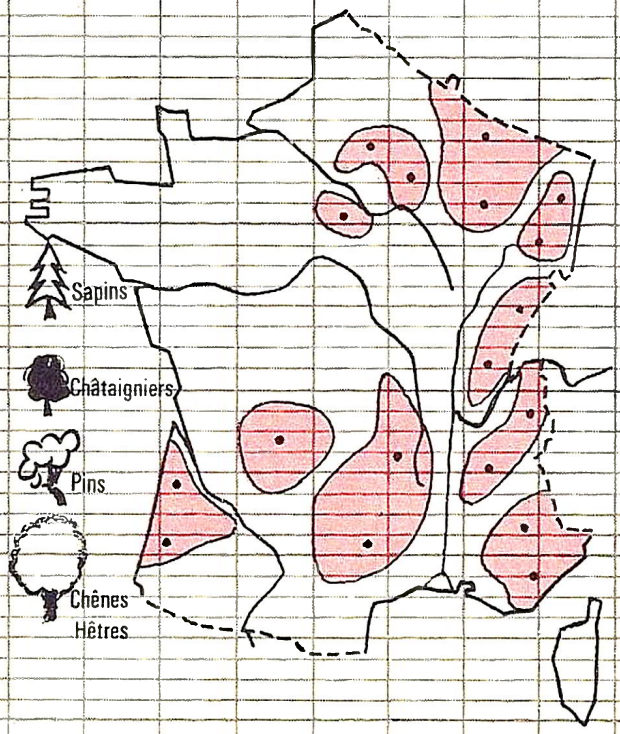

23 Les richesses de la mer

1

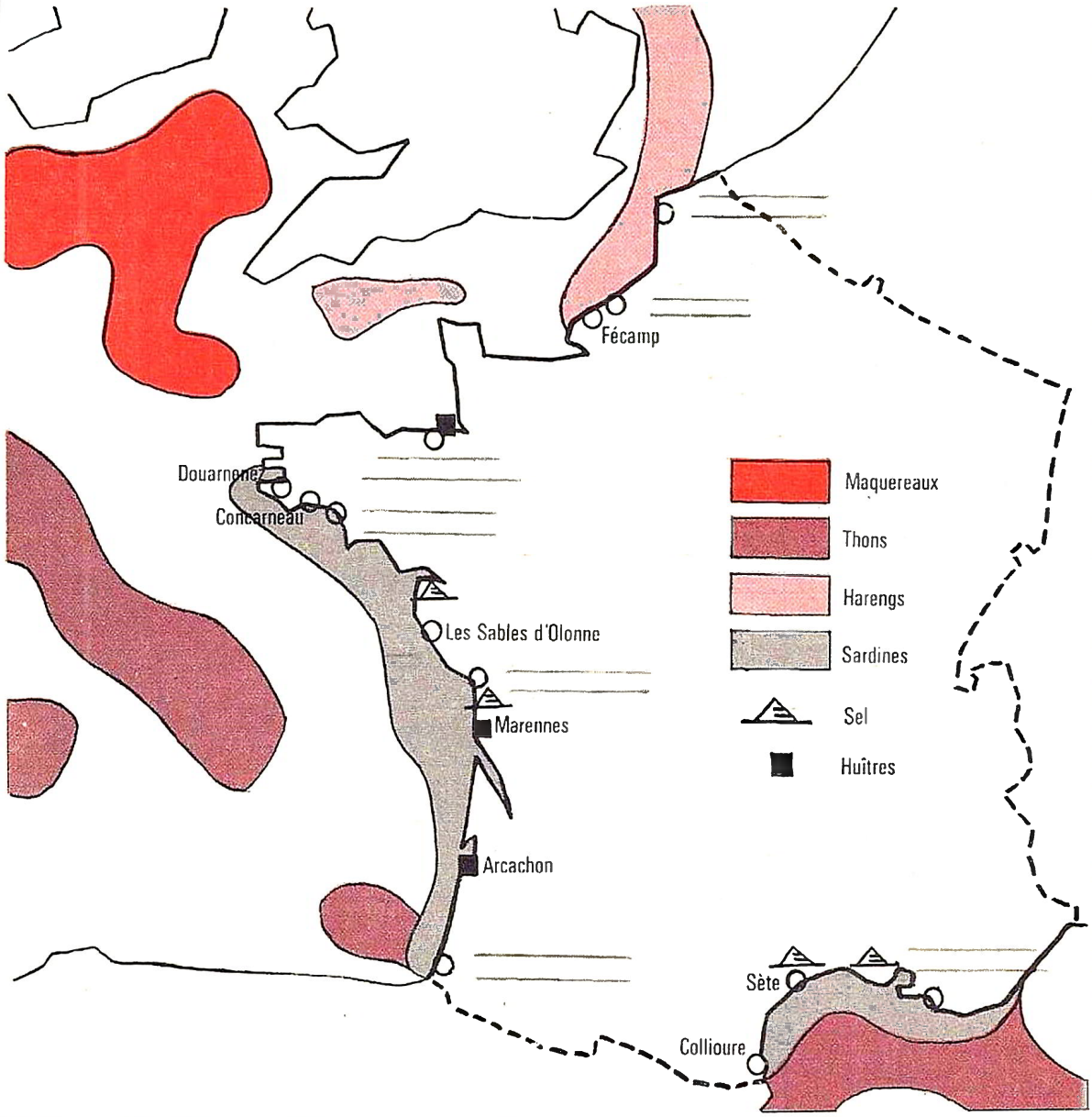

2

Classez les ports de pêche par ordre d'importance :

1 2 3 . . .

☐ La Rochelle	25.000 t
☐ Boulogne	140.000 t
☐ Lorient	55.000 t
☐ Dieppe	17.000 t
☐ Concarneau	50.000 t
☐ Douarnenez	20.000 t

3

Coloriez le graphique.
On pêche, par an :

110.000 t Mer du Nord (jaune).
80.000 t Manche (vert).
200.000 t Atlantique (bleu).
10.000 t Méditerranée (rouge).

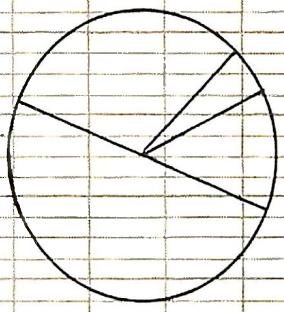

Tonnage annuel pêché en France : . tonnes de poissons.

4

Ces noms de ports manquent sur la carte : écrivez-les.

Dites quels poissons on apporte dans ces ports.

Allons à :	pêcher :
Boulogne .	Maquereaux
Dieppe .	Harengs
St-Malo .	Morue
Lorient .	Sardines
La Rochelle .	Thons
St-Jean-de-Luz .	
Marseille .	

5

Reconnaissez ces huîtres.

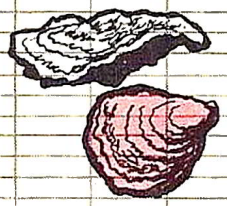

. Portugaises

. Belons

6

Le sel de la mer.



Les plus importants marais salants sont sur les côtes de .

Il n'y a pas de marais salants sur la . et la .

24 Les sources d'énergie...

1
Écrivez le nom de ces diverses sources d'énergie :
animal, atome, charbon, pétrole, électricité, chute d'eau, mer, vent.

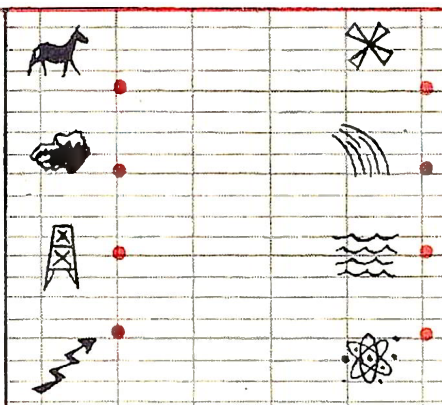

2
Quelles sources d'énergie produisent directement du mouvement ■ ?

Lesquelles donnent d'abord de la chaleur ● ?

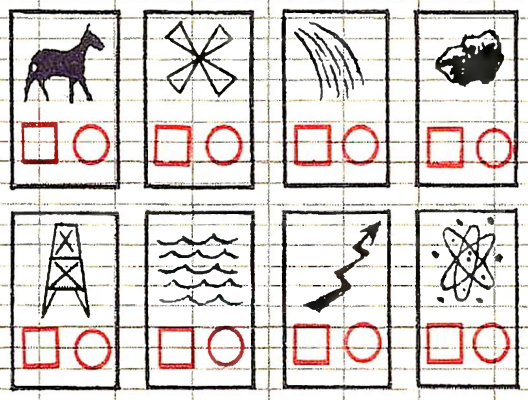

Vrai ☒ ou faux ☐ ?

☐ Le gaz de Lacq est distribué en France.
☐ Toutes les énergies peuvent produire de l'électricité
☐ L'énergie atomique est la plus puissante.

3
L'énergie en France
Mines d'uranium
Raffineries de pétrole

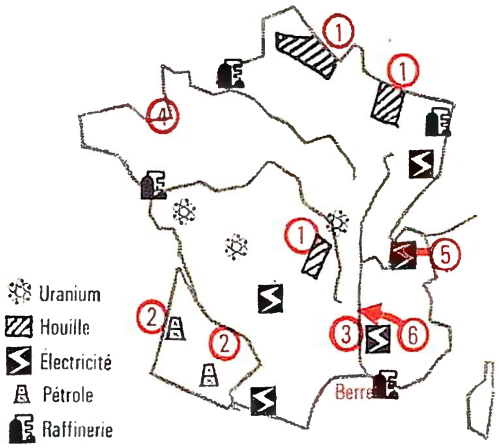

① Bassins houillers du .
de . et du .
② Pétrole et gaz à .
et à .
③ Centrale atomique de P .
④ Usine marémotrice de la .
⑤ Barrage de G .
⑥ Barrage de D .

Charbon, pétrole, électricité

4
La houille en France :

Le Nord	26	millions de tonnes en moyenne par an
Lorraine	16	
Le reste	13	
Total	55	

5
Sur cette bande de 55 mm indiquez en rouge la production du bassin du Nord.

Besoins Production Importation ?

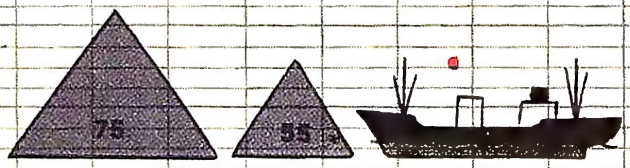

1 mm pour 1 million de tonnes.

6
Le pétrole en France (millions de tonnes).

Consomm. Production Importation ?

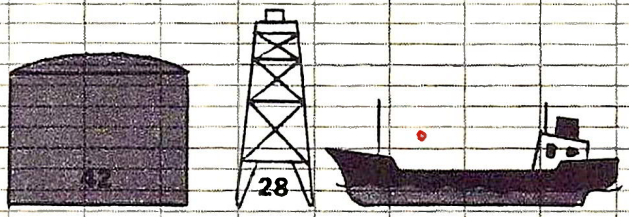

7
Pour l'électricité on utilise :
1 Le charbon.
2 L'eau de mer.
3 L'eau des torrents.
4 La chaleur volcanique.
5 L'eau des rivières.

C'est-à-dire :
- ☐ La houille blanche.
- ☐ La houille noire.
- ☐ La houille rouge.
- ☐ La houille verte.
- ☐ La houille bleue.

8
Électricité thermique T
ou hydraulique H
ou atomique A

- ☐ L'usine de St-Denis-Seine.
- ☐ L'usine de Chinon-Loire.
- ☐ L'usine de Kembs-Rhin.
- ☐ L'usine de Serre-Ponçon-Durance.

25 La métallurgie

1
Les mines françaises.

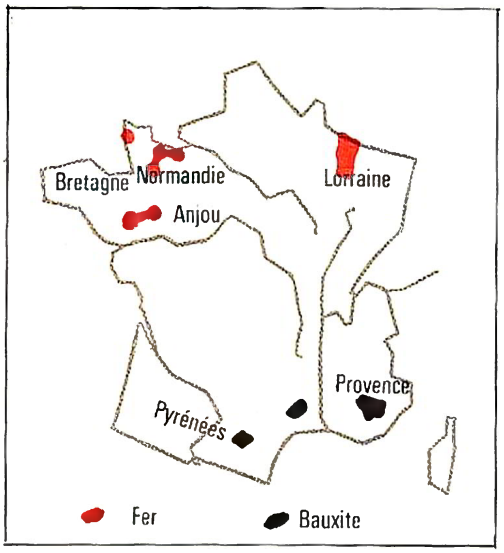

La production française de fer est

la . du Monde

la . d'Europe

Les mines de fer françaises se situent

en .

en .

et en .

La bauxite ou minerai d'aluminium

est extraite des bassins de .

2
. Fonte . acier . minerai,
. haut -fourneau . charbon.

Pour obtenir du fer il faut utiliser

un . dans lequel

on place du .

et du .

On obtient de la . que l'on

transforme ensuite en .

3
Part de la Lorraine dans la production française
(en millions de tonnes).

Fonte : 12
Acier : 13
} Coloriez cette partie en rouge sur la bande

3 mm pour un million de T

Fonte France 16

Acier France 20

Fer et aluminium

4

L'industrie métallurgique :

Avions

Autos

bateaux

locomotives



- Citroën
- Renault.
- Peugeot
- Sud-Aviation.
- Chantiers de l'Ouest.
- Berliet
- Schneider.



5

Carte de la métallurgie française.

En orangé, les mines de fer.
En vert, la bauxite.
En jaune, les régions industrielles.
En rouge, les villes •

Écrivez en place :

NORD	LORRAINE
NORMANDIE	PROVENCE
LANGUEDOC	Paris
Lille	Rouen
Le Havre	Nantes
Caen	Lyon
Le Creusot	St-Étienne

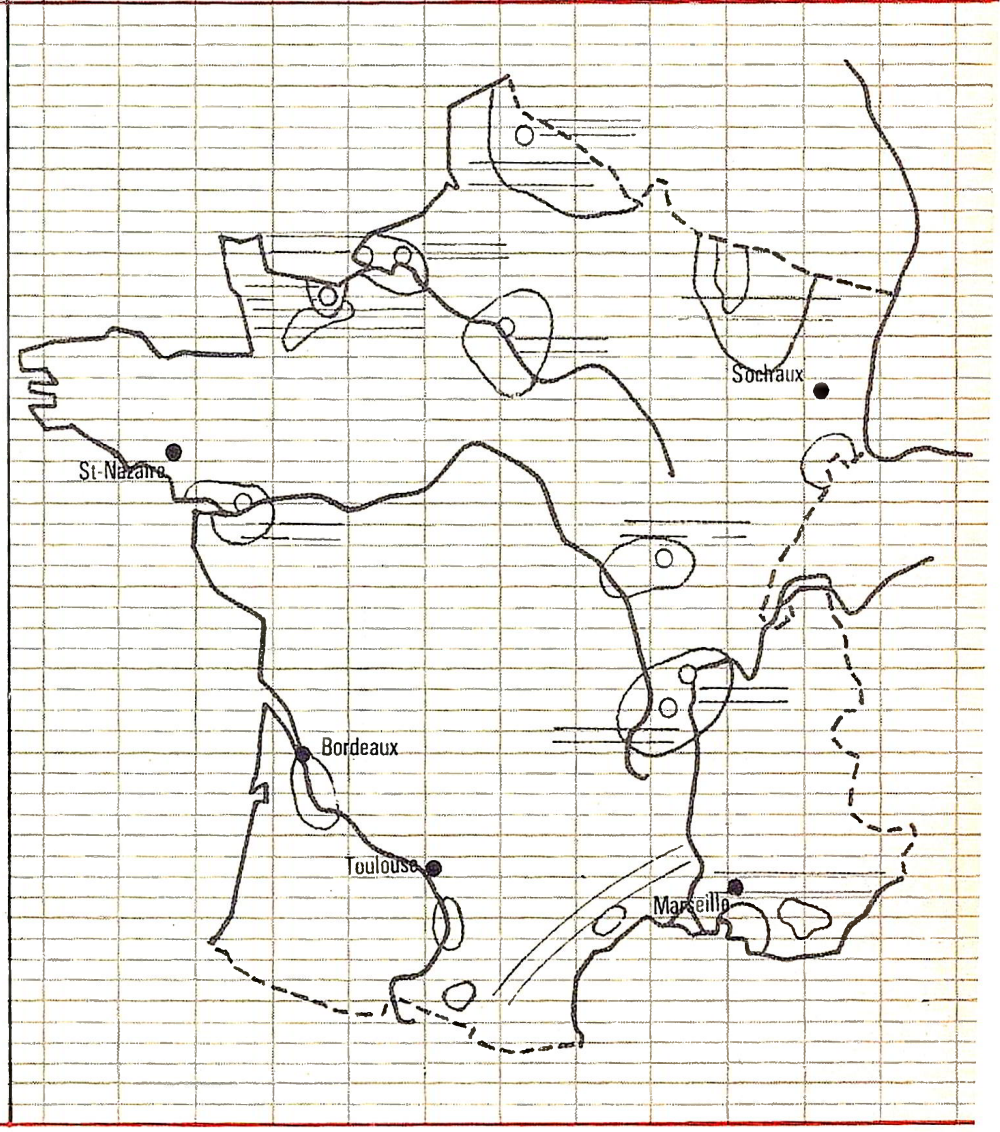

26 L'industrie textile

1
Origine des matières premières

Laine •
Soie •
Fibranne •
Lin •
Rayonne •
Tergal •
Coton •
Nylon •

ANIMALE
VÉGÉTALE
CHIMIQUE



2
Vrai ☒ ou faux ☐ ?

☐ On cultive du coton en France.
☐ Le textile le plus utilisé est le coton.
☐ La France produit de la soie.
☐ La France importe de la laine.
☐ Le lin est peu solide.

3
• Laine ou • lin ?

Les draps sont tissés avec •
Le drap est un tissu de •

4
• Le Nord, • l'Est ou • Lyon ?

Industrie de la soie •
Industrie du coton •
Industrie de la laine •

5
Rétablissez l'ordre logique :
1 2 3 4

- ☐ Tissage (production de tissus).
- ☐ Confection (production de vêtements).
- ☐ Matière première (production de fibres).
- ☐ Filature (production de fils).

6
D'où sont-ils importés ?
Consultez la carte.

La laine :

Le coton :

Le lin :

7
Carte de l'industrie textile.

En bleu, côtes et cours d'eau.
En vert, le coton (C).
En jaune, la laine (L).
En rose, la soie (S).
En orangé, les textiles artificiels (T).

Écrivez en place :

Paris	Marseille
Lyon	Lille
Roubaix	Tourcoing
Rouen	Mulhouse
Elbeuf	Mazamet

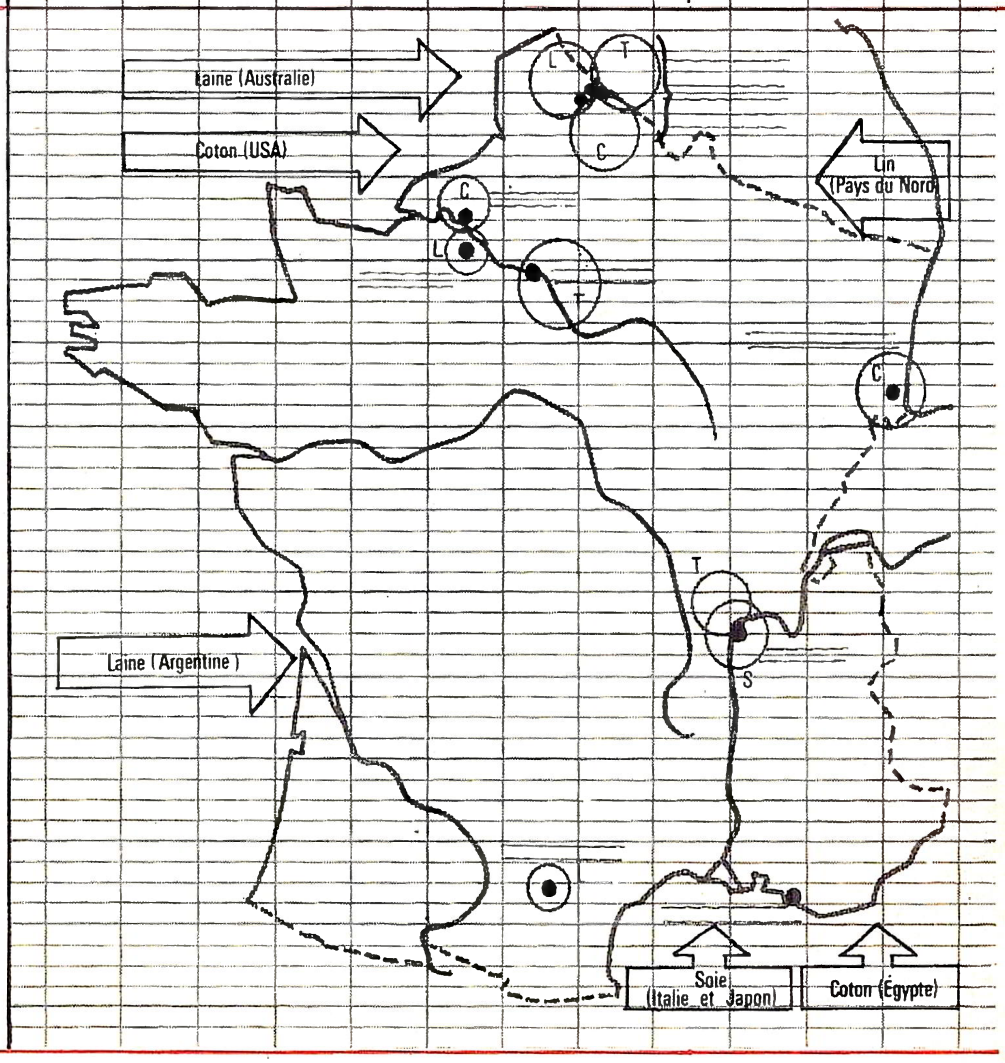

27 Autres industries

1
Les régions industrielles

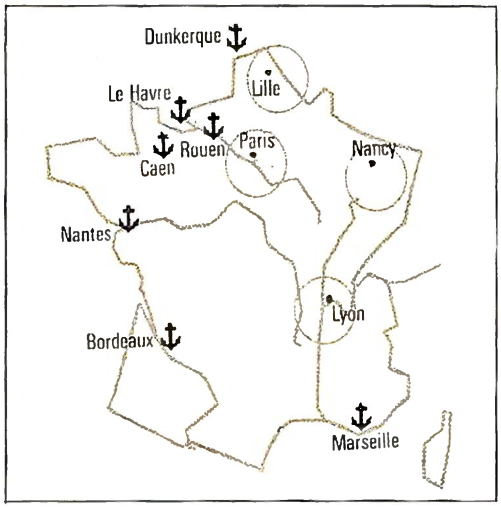

L'industrie française est concentrée

dans 4 régions : le •

l'•

la région •

la région •

et autour de ports comme : •

•

2
Reproduisez les signes convenables

La main d'œuvre

Les matières premières

La force motrice

Les transports faciles

Des traditions industrielles

Ces régions ... possèdent

Nord					
Est					
R. Paris					
Basse-Seine					
R. Lyon					
Marseille					

3
Vrai ☒ ou faux ☐ ?

☐ Les grandes entreprises sont les + nombreuses.
☐ Les moyennes entr. occupent le + d'ouvriers.
☐ Les petites entr. sont les + nombreuses.
☐ Le Sud-Ouest est très industriel.

☐ Le Tourisme est une industrie.

4
Les industries traditionnelles :

- Thiers
- Normandie
- St-Étienne
- Marseille
- Besançon
- Clermont-Ferrand
- Dijon
- Grasse
- Baccarat
- Limoges

Les couteaux de .

Les armes de .

Les cuivres de .

Les montres de .

Les pneus de .

Les verres et cristaux de .

Les porcelaines de .

Les parfums de .

La moutarde de .

Le savon de .

5
Dans chaque ☐ écrivez le chiffre correspondant à la bonne production :

1. Métallurgie (métaux).
2. Textiles (tissage, filature).
3. Industries mécaniques.
4. Industries chimiques.
5. Articles de luxe.
6. Industries alimentaires.

Régions	Industries dominantes
Nord	
Est	
Le Creusot	
Paris	
Basse-Seine	
R. Lyon	
Marseille	
Nantes	

28 Les routes

1

Carte des grands itinéraires :

En rouge, les grandes routes

Encerclez ○ trois nœuds routiers importants.

En vert, la future autoroute : Lille-Marseille.

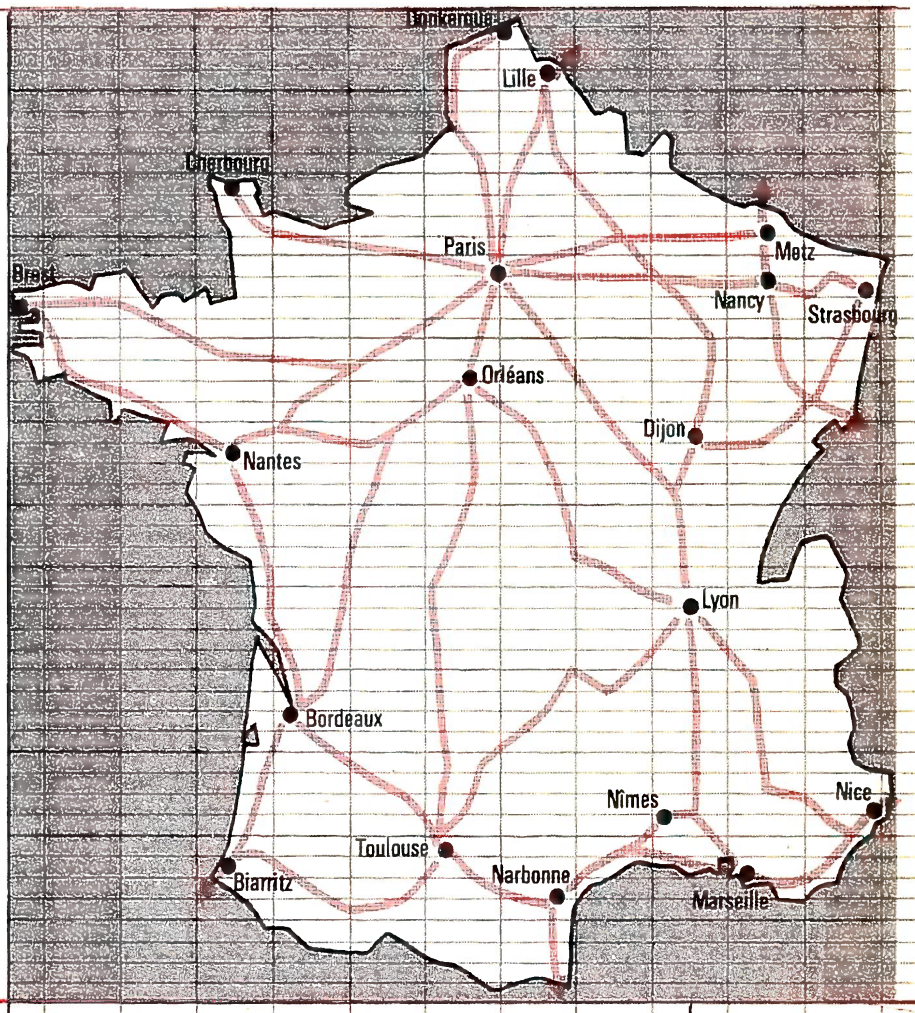

2

Où passent les grands itinéraires : ☒ ?

☐ Par les montagnes ou les plaines ? ☐

☐ Par les cols ou les tunnels ? ☐

☐ Par les hauteurs ou les vallées ☐

3

Indiquez le plus long ☒ ?

☐ Le tour de la Terre.

☐ Le kilométrage des routes de France.

4

Deux itinéraires directs Marseille-Lille :

1) par . . .

2) par . . .

et les voies ferrées

5
Carte des grandes voies ferrées.

En vert, les voies ferrées.

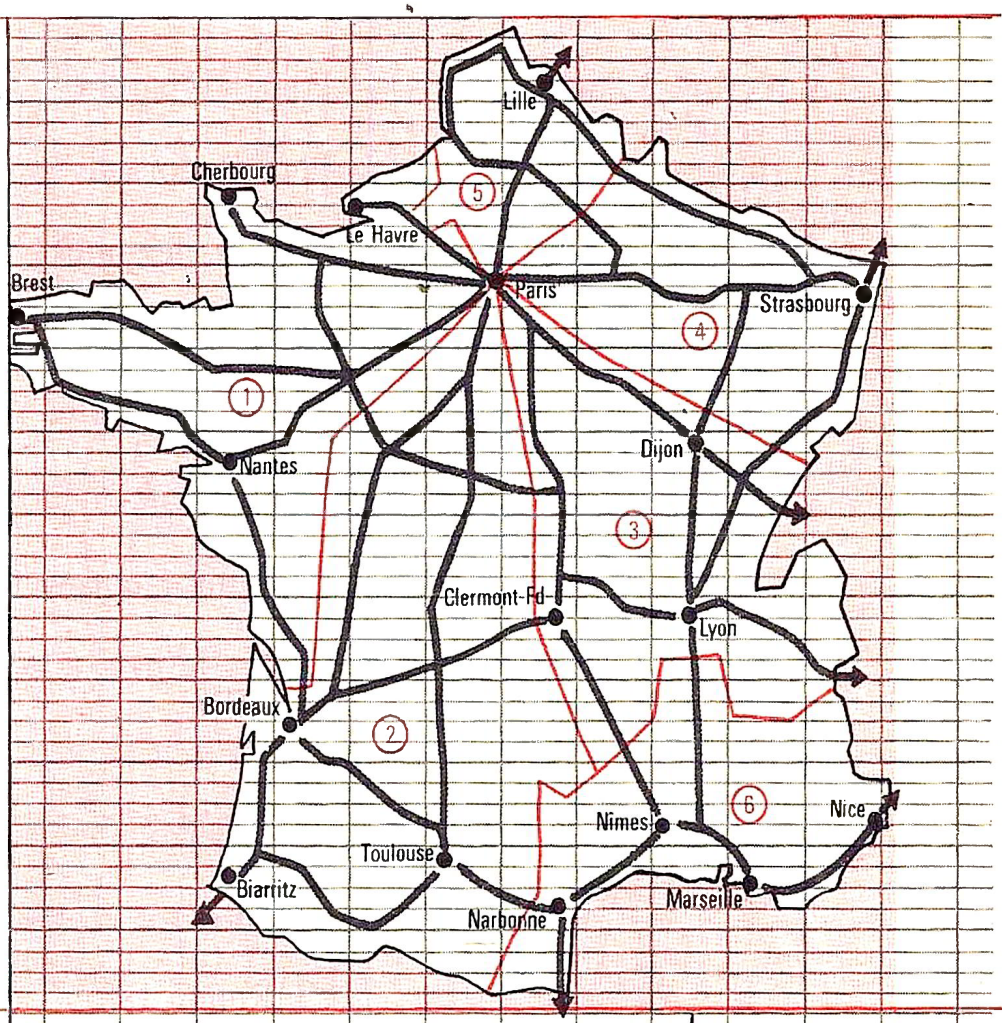

6
Les six réseaux de la S.N.C.F. (Indiquez le n° figurant sur la carte).

- ○ Sud-Ouest
- ○ Ouest
- ○ Nord
- ○ Est
- ○ Sud-Est
- ○ Méditerranée

7
Où vont ces grands rapides ?

1. La Flèche d'Or.
2. Le Mistral.
3. Le Train Bleu.
4. Le Sud-Express.
5. Le Simplon-Orient-Express.

- ☐ Paris-Dijon-Milan.
- ☐ Paris-Lyon-Marseille.
- ☐ Paris-Nice-Italie.
- ☐ Paris-Lille.
- ☐ Paris-Madrid.

29 Les voies navigables

1 De Dunkerque à Paris Quel moyen de transport faut-il utiliser : • Camion • péniche • train ?	Pour le charbon : • Pour le poisson : • Pour les légumes : •	
2 • Canal maritime • pont-canal, • canal de jonction ou • canal latéral ?	Il longe un fleuve : • Il relie deux rivières : • Il enjambe une vallée : • Il relie le port à la mer : •	
3 Vrai ☒ ou faux ☐ ?	☐ Une péniche vaut un train entier. ☐ Paris est un grand port de France. ☐ Rouen est un port de mer.	
4 Sont-ils navigables [N] ou inutilisables [I] ?	☐ L'Oise ☐ La Seine ☐ Le Rhin ☐ L'Isère ☐ La Saône ☐ Le Rhône ☐ L'Ariège ☐ Le Var	
5 Pour aller, par eau, de Paris à Bâle, on utilise ; (sur la carte de votre livre)	1) La • 2) Le • 3) Le •	

et les lignes aériennes

6
Pour aller, par eau, de Rouen à Lyon, on emprunte :

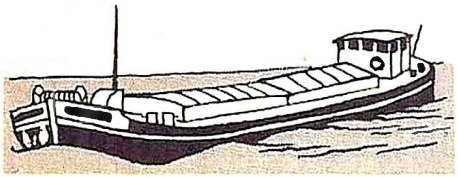

1)

2)

3)

4)

7
Rayez ce que l'on ne transporte pas en avion.



8
Indiquez la nationalité de la Compagnie aérienne :

F Française
B Belge
A Américaine
S Suisse

☐ T.W.A
☐ Air-Inter
☐ SABENA
☐ Swiss-Air
☐ Air France
☐ PANAM

9
Carte des principaux aéroports français :

Écrivez en place :

Paris-Orly

Paris-Le-Bourget

Nice-Californie

Marseille-Marignane

Bordeaux-Mérignac

Lyon-Bron

Toulouse-Blagnac

Biarritz-Parme

Strasbourg-Entzheim

(+ autres aéroports)

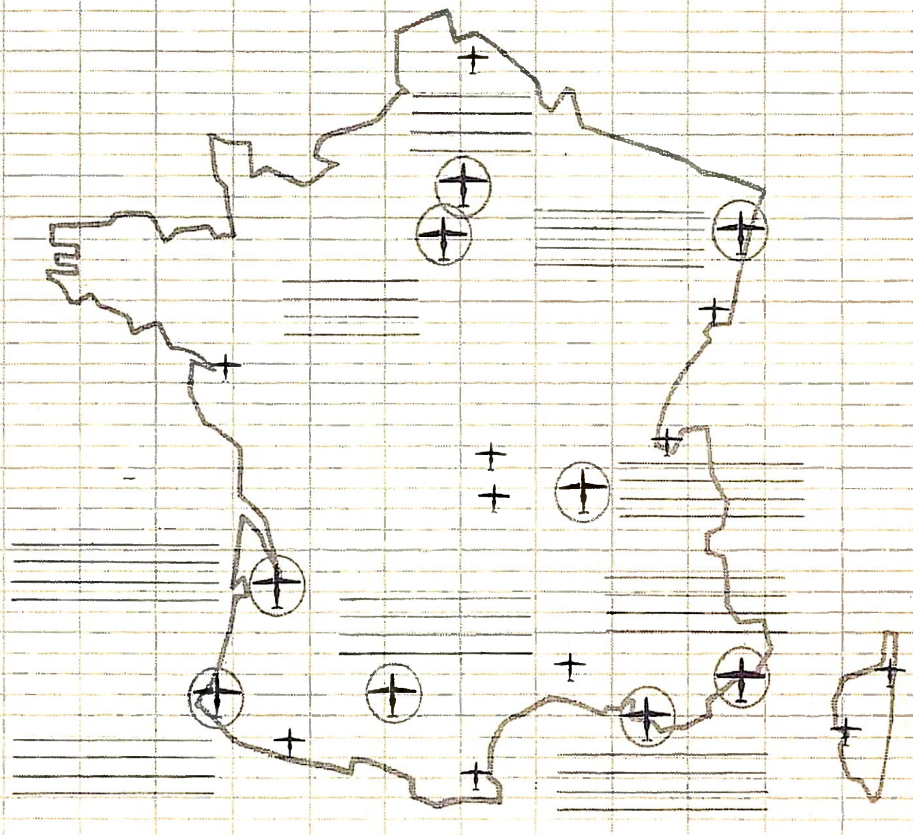

30 Transports maritimes

1

Carte des ports de France.

En bleu, les côtes.
En rouge, les ports.

Écrivez en place :

- Paris
- Calais
- Boulogne
- Le Havre
- Nantes
- Marseille
- Nice
- Rouen
- Dunkerque
- Dieppe
- Cherbourg
- Bordeaux
- Strasbourg

Soulignez en rouge les ports d'estuaires et fluviaux.

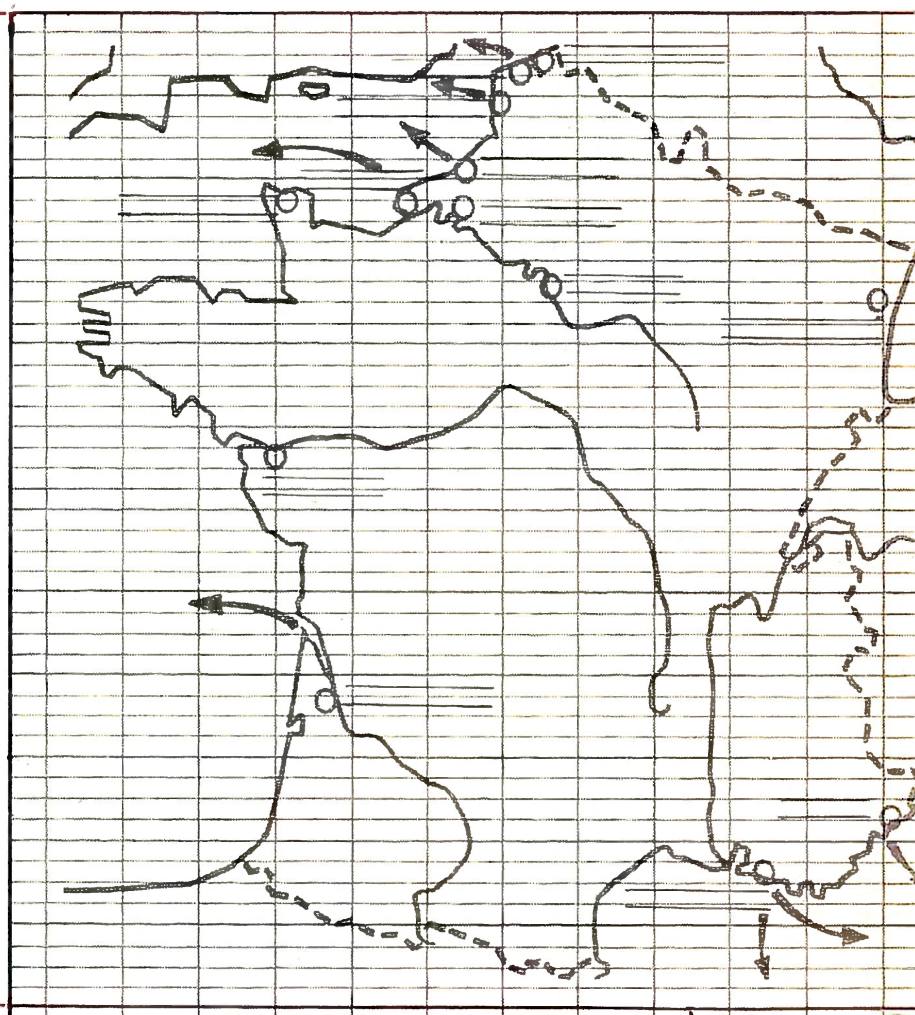

2

Dans quels ports peut-on embarquer ?

Pour l'Angleterre :

3

Classez les cinq premiers ports selon le trafic :

	March. (1 000 t)	Voyageurs (millions)
Dunkerque	13.859	256
Le Havre	27.137	207
Marseille	47.179	1.071
Calais	1.359	1.569
Nantes	9.716	618
Bordeaux	7.069	12
Boulogne	1.475	1.052

Marchandises	Voyageurs
1)	1)
2)	2)
3)	3)
4)	4)
5)	5)

et commerce extérieur

4
La France exporte ☐
mais elle importe ☐

- ☐ Coton
- ☐ Riz
- ☐ Minerai de fer
- ☐ Aluminium
- ☐ Automobiles
- ☐ Café
- ☐ Champagne
- ☐ Soie
- ☐ Pétrole
- ☐ Primeurs

5
D'où viennent ces importations ?

Pâte à papier	Égypte
Coton	Espagne
Arachides	Scandinavie
Oranges	Malaisie
Caoutchouc	Sénégal
Pétrole	Algérie

6
Vrai ☒ ou faux ☐ ?

- ☐ La France importe plus qu'elle n'exporte.
- ☐ La France commerce avec ses voisins.
- ☐ La France importe du pétrole.
- ☐ La Belgique nous achète des automobiles.
- ☐ La Suisse nous achète surtout des montres.
- ☐ La France vend de l'électricité à l'Angleterre.
- ☐ La France "importe" des touristes étrangers.
- ☐ La mode est un produit d'exportation.
- ☐ La qualité française est réputée

31 Les départements

1
Voici les départements de la région parisienne.

Écrivez en place leur numéro et leur chef-lieu :

75 - Seine	Paris
78 - Yvelines	Versailles
91 - Essonne	Évry
92 - Hts-de-Seine	Nanterre
93 - S.-St-Denis	Bobigny
94 - Val-de-Marne	Créteil
95 - Val d'Oise	Pontoise

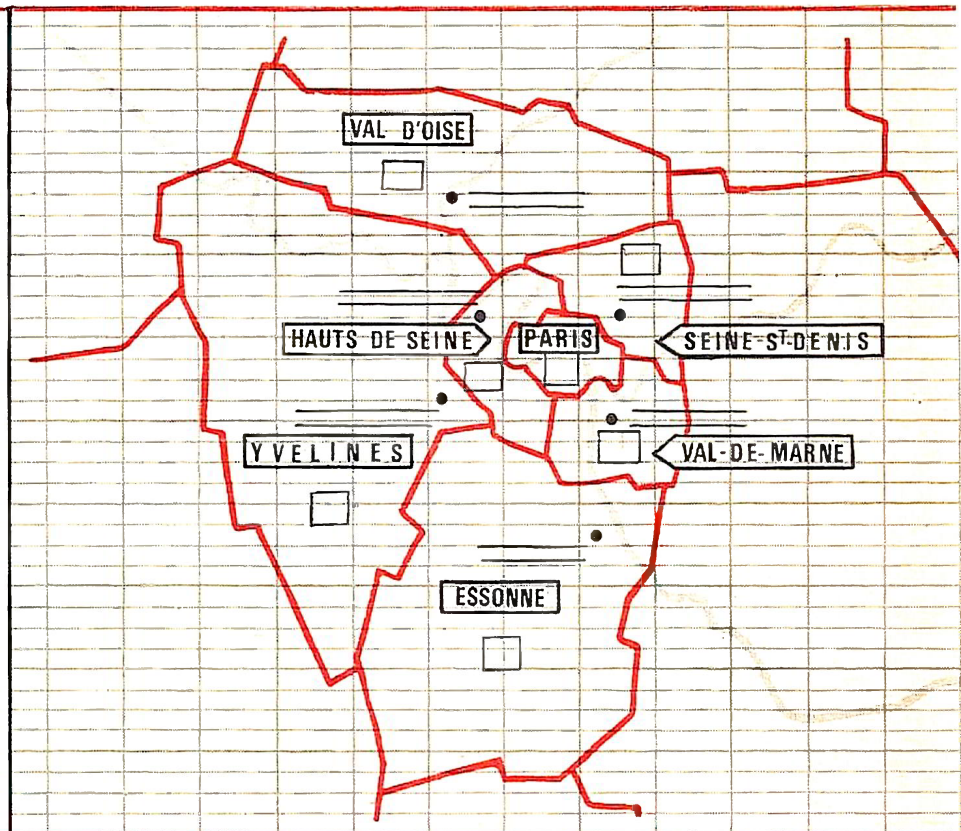

2
D'où viennent ces voitures ?

	Département	Préfecture
7075 JE 75		
366 DJ 03		
501 AK 72		
7645 BL 69		
628 CZ 16		

3
Dans une adresse postale, quel nombre écrire devant ces villes ?

☐ Nantes	☐ Nice	☐ Lyon
☐ Dijon	☐ Rennes	☐ Pau
☐ Nancy	☐ Colmar	☐ Rouen
☐ Ajaccio	☐ Evry	☐ Niort

4

Écrivez le numéro de chaque département.

01 Ain	15 Cantal	29 Finistère	43 Haute-Loire	56 Morbihan
02 Aisne	16 Charente	30 Gard	44 Loire-Atlant.	57 Moselle
03 Allier	17 Charente-Marit.	31 Hte-Garonne	45 Loiret	58 Nièvre
04 Basses-Alpes	18 Cher	32 Gers	46 Lot	59 Nord
05 Hautes-Alpes	19 Corrèze	33 Gironde	47 Lot-et-Garonne	60 Oise
06 Alpes maritimes	20 Corse	34 Hérault	48 Lozère	61 Orne
07 Ardèche	21 Côte-d'Or	35 Ille-et-Vilaine	49 Maine-et-Loire	62 Pas-de-Calais
08 Ardennes	22 Côtes-du-Nord	36 Indre	50 Manche	63 Puy-de-Dôme
09 Ariège	23 Creuse	37 Indre-et-Loire	51 Marne	64 Basses-Pyrénées
10 Aube	24 Dordogne	38 Isère	52 Haute-Marne	65 Hautes-Pyrénées
11 Aude	25 Doubs	39 Jura	53 Mayenne	66 Pyrénées-Orient.
12 Aveyron	26 Drôme	40 Landes	54 Meurthe-et-Moselle	67 Bas-Rhin
13 Bouc.-du-Rhône	27 Eure	41 Loir-et-Cher	55 Meuse	68 Haut-Rhin
14 Calvados	28 Eure-et-Loir	42 Loire		69 Rhône

70 Haute-Saône
71 Saône-et-Loire
72 Sarthe
73 Savoie
74 Haute-Savoie
75 Seine
76 Seine-Maritime
77 Seine-et-Marne
78 Yvelines
79 Deux-Sèvres
80 Somme
81 Tarn
82 Tarn-et-Garonne
83 Var
84 Vaucluse
85 Vendée
86 Vienne
87 Haute-Vienne
88 Vosges
89 Yonne
90 Territoire-de-Belfort
91 Essonne
92 Hauts-de-Seine
93 Seine-St-Denis
94 Val-de-Marne
95 Val-d'Oise

32 Table des matières

	Leçons		Pages
Généralités	1	Plans et cartes	2
	2	Présentation de la France	4
	3	Climat de la France	6
Relief	4	Alpes	8
	5	Jura	10
	6	Pyrénées	12
	7	Vosges	14
	8	Massif Central	16
Côtes	9	Manche et Mer du Nord	18
	10	Océan Atlantique	20
	11	Méditerranée	22
Cours d'eau	12	Seine	24
	13	Loire	26
	14	Garonne	28
	15	Rhône	30
	16	Fleuves côtiers et de l'Est	32
Population	17	Population française	34
Vie rurale	18	Habitations	36
	19	Ressources	38
Ressources agricoles	20	Blé et cultures industrielles	40
	21	Vigne, boissons, légumes, fruits	42
	22	Élevage et forêts	44
Ressources maritimes	23	Richesses de la mer	46
Ressources industrielles	24	Charbon, pétrole, électricité	48
	25	Métallurgie et mines	50
	26	Industrie textile	52
	27	Autres industries	54
Communications	28	Routes et voies ferrées	56
	29	Voies navigables et aériennes	58
	30	Voies maritimes et commerce	60
Administration	31	Départements	62

Dépôt légal n° 5586 4e trimestre 1966 – Imprimé en France par L.SCHMIT Paris. 11-68-2327-01